Topografie

Nordamerika

VORSCHAU

Arbeitsblätter
Lernzielkontrolle
Rätsel

netzwerk lernen

zur Vollversion

NORDAMERIKA – Die Arbeitsmaterialien im Überblick

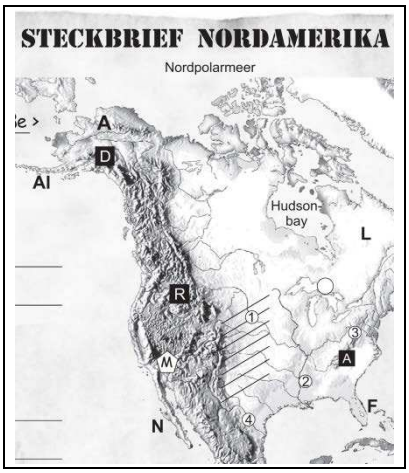

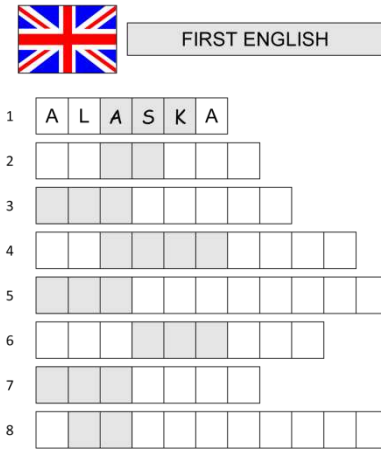

2 Arbeitsblätter

für die Erarbeitung der Lerninhalte

Lernzielkontrolle

zur schriftl. Überprüfung

NAmerika-Rätsel

zum spielerischen Wiederholen

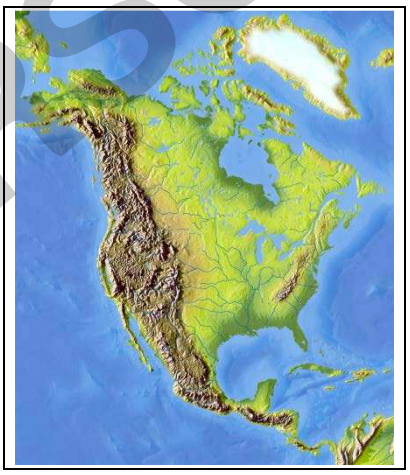

1 Foto

Der Denali

2 Reliefkarten

zum Üben und mündl. Abfragen

3 Umrisskarten

zur Gestaltung eigener Materialien

VORSCHAU

netzwerk lernen

zur Vollversion

Wissenswertes über Nordamerika

Arbeitsblatt 1

▶ **Name** Aufgabe 1: Lies den folgenden Text und unterstreiche den Begriff, vo

Der Begriff Amerika wurde vom Vornamen des Italieners **Amerigo** Vespucci (1451–
davon schrieb, dass der von Kolumbus entdeckte Erdteil nicht Indien oder Asien ist
Kontinent. Der Begriff Amerika bezeichnet einen Doppelkontinent, der aus zwei Er

▶ **Größe & Einwohner** Aufgabe 2: Werte die Diagramme aus und e

= 5 Mio qkm = 100 Mio Einw

Nordamerika hat eine Fläche von

etwa _____ Mio qkm. Damit ist es

der _____Kontinent der Erde.

Mit ca _____ Mio Einwohnern

nimmt es den ____ Rang ein.

Bi

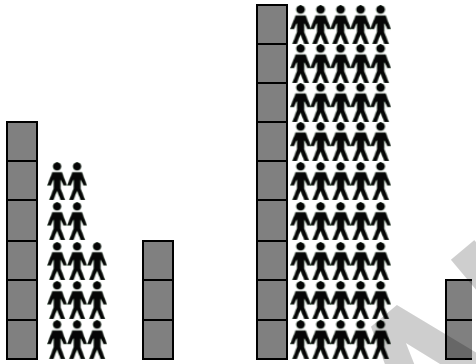

Geographische Lage > Aufgabe 2: Zeichne diese Breitenkreise ein: nö

Nordamerika
liegt auf der _____-Halbkugel.

Meere

I Nordpolarmeer

II Atlantischer Ozean

III Karibisches Meer

IV Pazifischer Ozean

Die **Länder Nordamerikas**

A _____ ist die größte Insel der Erde; sie gehört geologisch zu Nordamerika, politisch zu Dänemark.

B _____ , der zweitgrößte Staat der Erde (35 Mio Einw.) Die Hauptstadt heißt Ottawa.

C Die _____ sind der drittgrößte Staat der Erde (Einw. 350 Mio). Die Hauptstadt ist Washington.

D _____ gehört politisch zu N-Amerika, kulturell eher zu Süd-amerika. (Hauptst. Mexiko City)

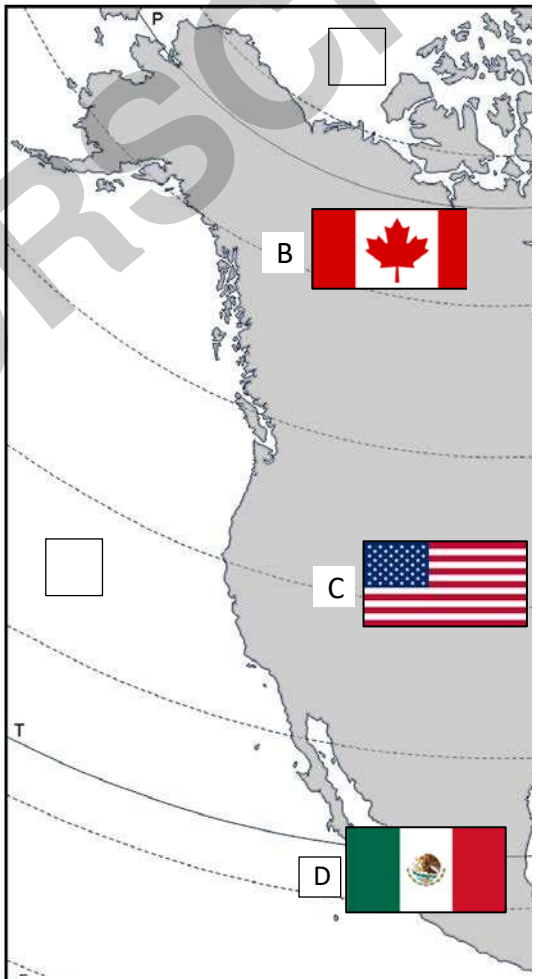

https://d-maps.com/m/america/amnord/amnord03.pdf

Bildquelle: © bloodua, istockphoto.com

< Die Schüler/innen werten einen Text und ein Diagramm aus und erarbeiten sich damit…
- den Begriff Amerika und
- die Größe Nordamerikas.

< Mit dem Arbeits-blatt und Atlas lernen sie die Meere, Halbinseln und Länder kennen.

VORSCHAU

netzwerk lernen

zur Vollversion

STECKBRIEF NORD

Nordpolarmeer

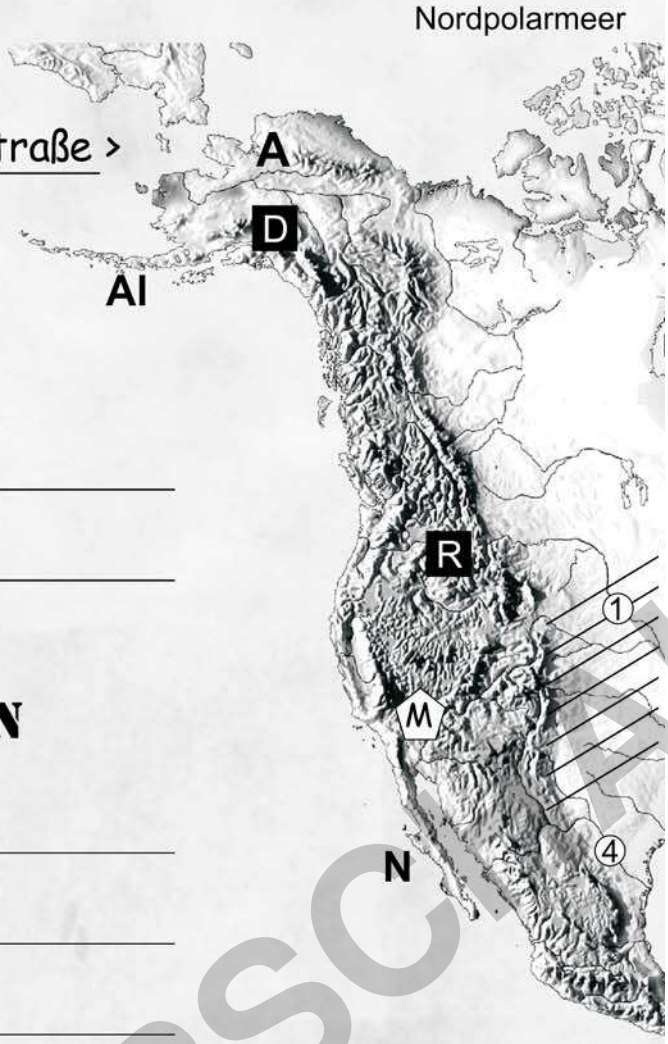

MEERENGE

B _____ straße >

INSELN

Al _____

Nf _____

HALBINSELN

A _____

F _____

L _____

N _____

GEBIRGE

A _____

Gebirge im Osten Nordamerikas ähnlich unseren Mittelgebirgen

_____

ein riesiges, etwa 5 000 km langes Faltengebirge im Westen

HÖCHSTER BERG

_____

(6 190 m), er gehört damit zu den Seven Summits, den jeweils höchsten Bergen der 7 Kontinente.

FLÜSSE

1 _____

längster Fluss Nordamerikas

2 _____

zweitlängster Fluss Nordamer.

3 _____

Fluss im NO in den Atlantik

4 _____

Grenzfluss zw. Mexi

Arbeitsblatt 2

Bildquelle: bloodua istockphoto.com

Die Schüler/-innen erarbeiten sich mit Hilfe des Steckbriefes

die Namen der Inseln und Halbinseln,
die Gebirge,
Flüsse und
Landschaften.

Wissenswertes zu einzelnen topogr. Begriffen bieten die zugehörigen Texte unter den Wörtern

VORSCHAU

netzwerk lernen

zur Vollversion

.... aus der Erdkunde am ..... Klasse.....

SchülerIn ..... erreichte ..... Punkte = NOTE .....

1. Ergänze den folgenden Lückentext:

Nordamerika ist mit einer Fläche von 24 Mill. km² der ..... Kontinent der Erde. Er grenzt im Norden 1

an das .....meer, im Westen an den ..... Ozean und im Osten an den 2

..... Ozean. Von Asien trennt es die .....straße. 2

Neben den Vereinigten Staaten von Amerika und Kanada gehören ..... und ..... zu 2

Nordamerika. Der Kontinent ist durch drei Großlandschaften geprägt.

Im Osten erhebt sich ein 2400 km langer Gebirgszug, die 1

Zwischen ihm und den Rocky Mountains im Westen liegen die ....., eine ausgedehnte Ebene. 1

2. Trage in die Karte ein:

2.1 **K** = Karibisches Meer 1

2.2 **A** = Aleuten 1

2.3 **F** = Halbinsel Florida 1

2.4 **N** = Neufundland 1

3. Benenne diese Eintragungen

1 = ... (Insel) 1

2 = ... (Binnenmeer) 1

3 = ... (See) 1

4 = ... (Fluss) 1

4. Fragen zu Nordamerika: Wie heißt ...

VORSCHAU

Die Lernzielkontrolle liegt in zwei Dateiformaten vor:

1. als PDF-Datei
2. als veränderbare Word-Datei

Hinweis!

Um Missbrauch durch `fündige´ Schüler zu vermeiden, wurden wesentliche Inhalte verdeckt.

netzwerk lernen

zur Vollversion

Nordamerika-RÄTSEL

FIRST ENGLISH	THEN GEOGRAPHY

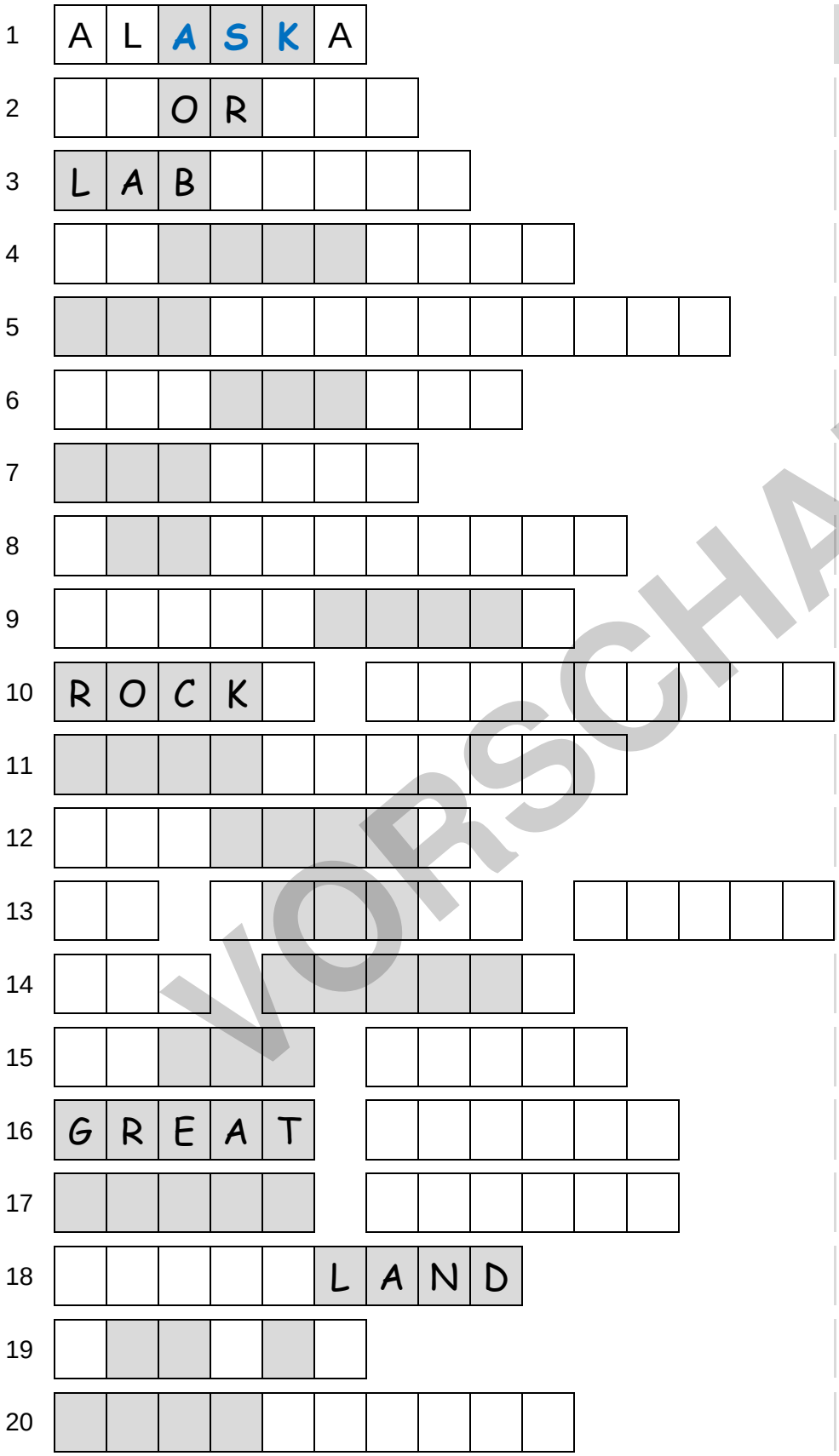

opposite of `answer´

Anleitung:

- Zunächst ist ein engl. Wort zu finden.

  opposite of answer = ASK

- ASK wird jetzt in die grauen Felder eingetragen (s. 1).

- Nun ist das Wort zu einem geogr. Begriff zu ergänzen.
  > ASK > ALASKA

Hinweis:
Eine Variante mit Lösungshilfen ist kostenlos.

Denali ▶

VORSCHAU

netzwerk lernen

zur Vollversion

Der Denali - der höchste Berg Nor

Foto zu Arbeitsblatt 2

Name:	In der Sprache der Ureinwohner Alasl `der Große´ oder `der Hohe´. Von 1917 bis 2015 hieß er offiziell Mour
Lage:	Er liegt in Alaska.
Höhe:	6.190 Meter – (die Zugspitze ist 2.962 M
Erstbe-steigung:	Im Juni 1913 gelang einer amerikanisc die Erstbesteigung des Denali.
Der Berg heute	Mit einer Rekordmessung von -73 Gra Denali der kälteste Berg der Erde. Im sich die Temperaturen zwischen -15 u Außerdem wird der Berg von heftigen Windgeschwindigkeiten von bi heimgesucht.

Im Arbeitsblatt 2 STECKBRIEF NORDAMERIKA ist der höchste Berg Nordamerikas zu suchen.

Die Schüler lokalisieren und benennen ihn.

> An dieser Stelle lässt sich das Foto einsetzen.

VORSCHAU

netzwerk lernen

zur Vollversion

NORDAMERIKA – Reliefkarte 1

Mountain High Maps® Copyright © 1993 Digital Wisdom®, Inc.

Bildquelle: © bloodua, istockphoto.com

VORSCHAU

Zum Üben und Wiederholen der Lerninhalte

Anregungen zur Verwendung :

- Sie zeigen auf topogr. Inhalte und stellen Fragen.
- Ein Schüler übernimmt die Rolle des Lehrers und testet das Wissen seiner Mitschüler.
- Ein Schüler `opfert´ sich und beantwortet Fragen der Mitschüler.

Präsentieren lassen sich die Reliefkarten mit interaktiven Whiteboards, Laptop & Beamer sowie Dokumentenkameras. Auch OHPs kommen noch zum Einsatz…

Kann man Farbfolien selber drucken?

Ja. Kein Problem.
Zu beachten ist nur, dass die **Folien für Tintenstrahldrucker geeignet** sind.

netzwerk lernen

zur Vollversion

NORDAMERIKA – Reliefkarte 2

Zeichenerklärung:

Meere

(Halb)Insel

Ge

Fluss

See

hö

Wüste

Verwendung

Die Reliefkarte 2 ist inhaltlich identisch mit Arbeitsblatt 2.

Sie kann eingesetzt werden, um die Erarbeitung der topogr. Inhalte visuell zu unterstützen.

Ferner ist sie hilfreich bei der Wiederholung des Unterrichtsstoffes und der mündlichen Lernzielkontrolle.

Mountain High Maps® Copyright © 1993 Digital Wisdom®, In

netzwerk lernen

zur Vollversion

Kartenmaterial zur Gestaltung eigener Arbeitsblätter

Nordamerikakarte - blanco

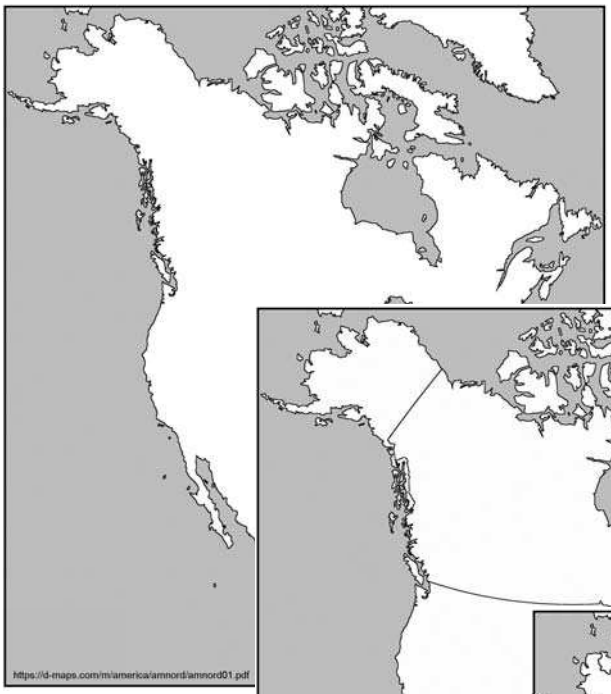

Nordamerikakarte - Länder

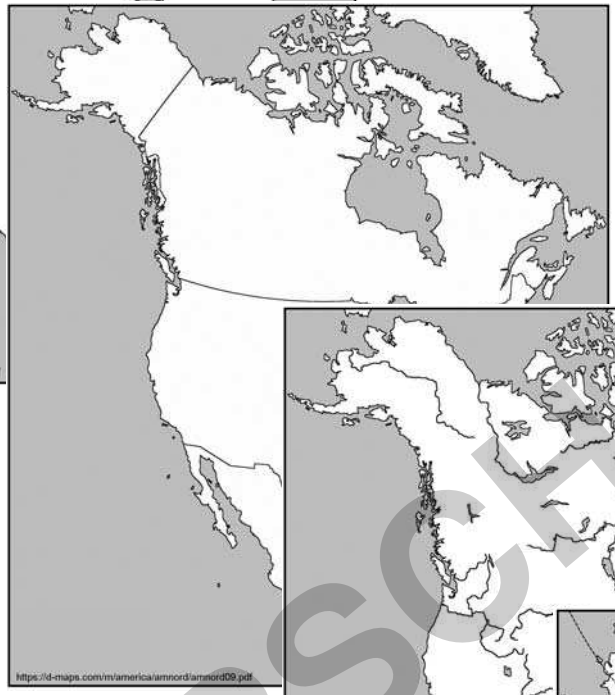

Nordamerikakarte - phys.

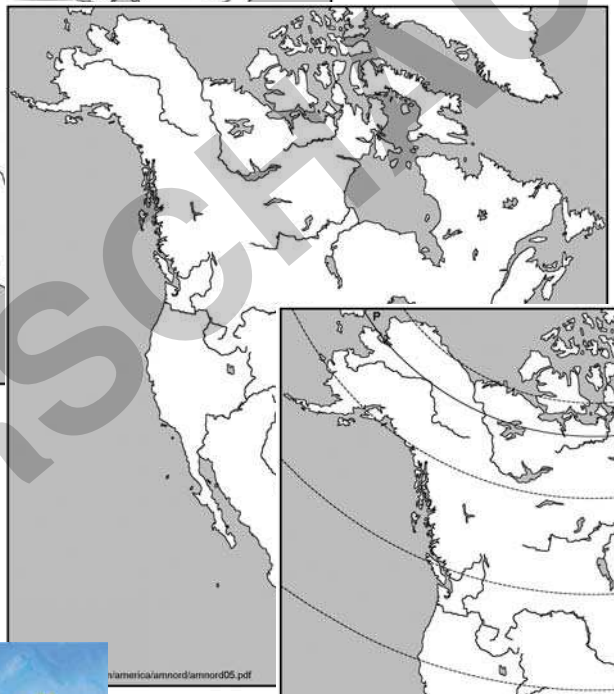

Nordamerikakarte phys. + Gradnetz

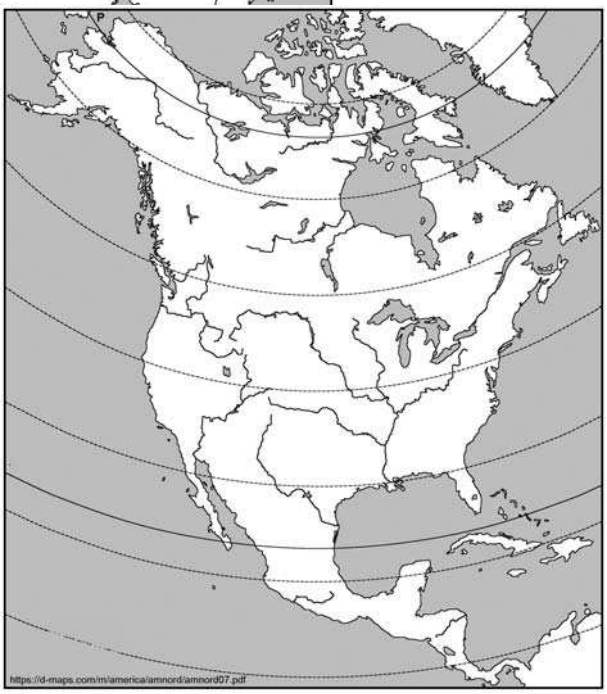

VORSCHAU

netzwerk lernen

Nordamerika auf einen Blick >

zur Vollversion

NORDAMERIKA auf einen Blick

Lage

Bezeichne die Breistenkreise

(RAND)MEERE

Beschrifte die Meere

B Beringmeer

N Nordpolar-meer

H Hudsonbay

Halbinseln

Beschrifte sie grün

A Alaska

F Florida

L Labrador

N Niederkalifornie

INSELN

Trage sie grün in die Karte ein

1 - Aleuten

2 - Neufundland

Gebirge

Male sie braun an und beschrifte sie

A - Appalachen

H - Rocky Mountains

Wüste

Beschrifte sie

M - _____

Trag
in di

1
2
3
4

Riesige Hochebene

Die höchste Berg Nordamerikas

VORSCHAU

netzwerk lernen

zur Vollversion

für Ihre Bestellung!

Als kleine Belohnung für Ihr Interesse an meinen Materialien erhalten Sie dieses

< Arbeitsblatt