Station 1

Name: _____

Der Handel wird global (1)

Obwohl einzelne Güter schon früh über große Entfernungen transportiert wurden, hat sich der ökonomische Handel den größten Teil der Menschheitsgeschichte auf die lokale Ebene bezogen. [...] Aber [...] in den vergangenen 50 Jahren hat der grenzüberschreitende Handel stetig an Bedeutung gewonnen. Neben weltweit produzierenden und agierenden Unternehmen ermöglichen vor allem sinkende Transport- und Kommunikationskosten die Ausweitung des grenzüberschreitenden Handels.

Seit 1930 sind sowohl die Kosten für den See- und Lufttransport als auch die Telekommunikationskosten massiv gesunken. Die Kosten für Seefracht und Lufttransport verringerten sich innerhalb von 70 Jahren um 65 bzw. 88 Prozent. Bei den Kommunikationskosten – etwa bei den Gebühren für ein dreiminütiges Telefongespräch von New York nach London – ist der Trend noch deutlicher: In Preisen von 1990 kostete dieses Gespräch 1930 knapp 245 US-Dollar, 1970 noch mehr als 30 US-Dollar und 2005 nur noch 30 US-Cent. [...]

Erst die sinkenden Kosten für Transport und Kommunikation und der Ausbau globaler Transport- und Kommunikationsnetze haben neue Produktions-, Vermarktungs- und Absatzstrategien sowie einen allgemeinen globalen Austausch ermöglicht. [...]

Während die Kommunikationskosten auch in den letzten Jahren weiter gesunken sind, haben vor allem die seit etwa zehn Jahren steigenden Energiekosten in vielen Bereichen zu einer Erhöhung der Transportkosten geführt. Allerdings ist der Anteil der Transportkosten bei vielen Produkten gegenwärtig so gering, dass sich auch deutliche Preissteigerungen kaum auf die endgültigen Preise auswirken. So kostet etwa der Transport eines Containers mit mehr als 20 Tonnen Fracht von Asien nach Europa nicht mehr als ein Flug in der Economy-Class für einen Flugpassagier auf derselben Strecke.

Aus: http://www.bpb.de/nachschlagen/zahlen-und-fakten/globalisierung/52499/transport-und-kommunikation

Aufgabe 1

Erläutere, wie sinkende Kommunikations- und Transportkosten und steigende Globalisierung sich gegenseitig beeinflussen.

_____

_____

_____

_____

_____

_____

_____

_____

_____

VORSCHAU

Jakob Mohn: Erdkunde an Stationen Spezial: Globalisierung – Die Welt wächst zusammen
© Auer Verlag

netzwerk lernen
zur Vollversion

Station 2

Name: _____

Importland Deutschland (2)

Importe in Mio. € im Jahr 2014

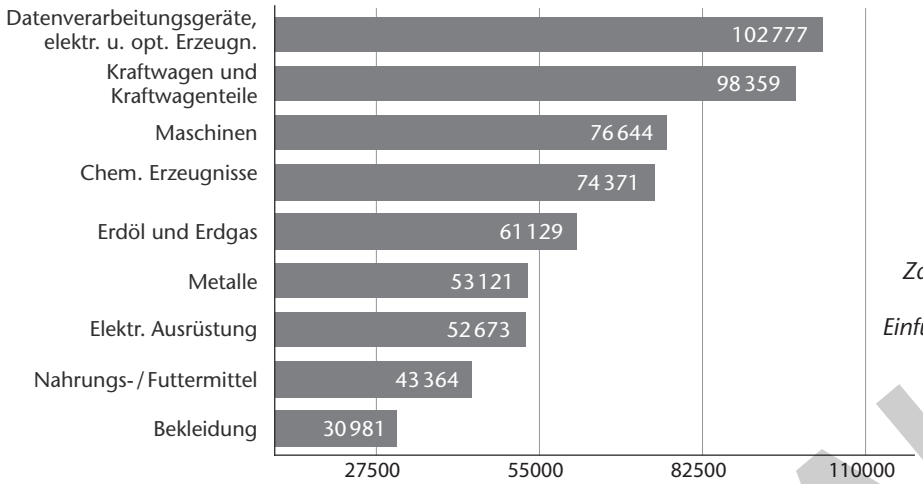

Quelle: Statistisches Bundesamt, Wiesbaden, 2016; https://www.destatis.de/DE/ZahlenFakten/GesamtwirtschaftUmwelt/Aussenhandel/Tabellen/EinfuhrAusfuhrGueterabteilungen.html

Aufgabe 2

a) Beschreibe, welche Waren nach Deutschland importiert werden.
b) Welche Länder sind die wichtigsten Import-Partner der Bundesrepublik?

_____

_____

_____

_____

_____

Aufgabe 3

Überlege, welche Importwaren du täglich verwendest. Recherchiere dafür auch zu Hause und achte bei Verpackungen und Etiketten auf das Herkunftsland.
Trage die wichtigsten Produkte mit ihrem Herkunftsland in die nachfolgende Tabelle ein.

Produkt	Herkunftsland

VORSCHAU

Jakob Mohn: Erdkunde an Stationen Spezial: Globalisierung – Die Welt wächst zusammen
© Auer Verlag

netzwerk lernen
zur Vollversion

Station 5

Mit dem Flugzeug um die Welt

Name: _____

Es wird eng am Himmel über Europa. Das merken nicht nur die Anwohner der Flughäfen in Frankfurt oder München. Immer mehr Menschen nutzen das Flugzeug, um in den Urlaub zu fliegen oder geschäftliche Termine wahrzunehmen. Möglich machen dies sinkende Ticketpreise und die Angebote der sogenannten Billigflieger. Doch längst dominieren nicht mehr die klassischen europäischen oder amerikanischen Airlines den Himmel. Die Konkurrenz kommt aus den Golfstaaten und aus Asien. Mit modernen, effizienten und großen Flugzeugen, niedrigen Kerosin-Preisen und neuen Mega-Airports hängen sie die Konkurrenz immer weiter ab.



Quelle Daten: Passagieraufkommen in Mio Personen, 2015, Aus: https://www.panynj.gov/airports/pdf-traffic/ATR_2015.pdf, S.31

VORSCHAU

Aufgabe 1

Liste im Heft die weltweit fünf größten Flughäfen, gemessen am Passagieraufkommen, auf.

Aufgabe 2

Zeichne die weltweit meistgeflogenen Flugrouten auf der Karte ein.



Platz 1: Hongkong – Taipeh (4 876 595 Passagiere)
Platz 2: Dublin – London (3 562 951 Passagiere)
Platz 3: Jakarta – Singapur (3 435 375 Passagiere)
Platz 4: Seoul – Tokio (3 272 375 Passagiere)
Platz 5: London – New York (2 729 362 Passagiere)

Quelle Daten: http://www.travelbook.de/service/Neues-Ranking-Die-am-meisten-gebuchten-Flugrouten-der-Welt-508981.html

Aufgabe 3

a) Beschreibe im Heft die aktuelle Situation im internationalen Flugverkehr.
b) Erkläre, warum arabische und asiatische Fluglinien ihre Konkurrenz hinter sich lassen.

Jakob Mohn: Erdkunde an Stationen Spezial: Globalisierung – Die Welt wächst zusammen
© Auer Verlag
netzwerk lernen
zur Vollversion

Station 7

Name: _____

Piraten in Sicht! (2)

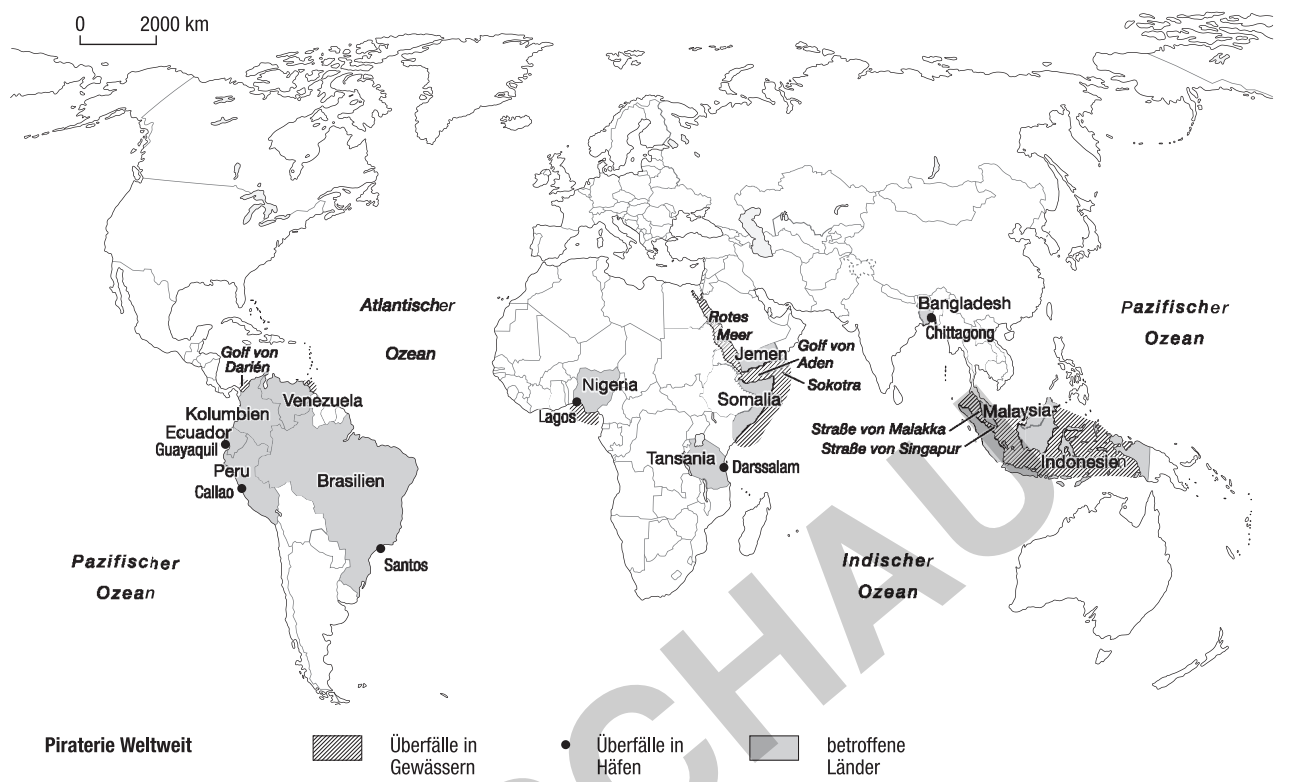

Quelle: http://upload.wikimedia.org/wikipedia/commons/9/9e/Weltweite_Piraterie.png

VORSCHAU

Aufgabe 2

a) Beschreibe das Vorgehen und die Ziele der modernen Piraten.
b) Fasse zusammen, welche Maßnahmen Redereien und betroffenen Nationen treffen, um sich vor den Überfällen zu schützen.

_____

_____

_____

_____

Aufgabe 3

Erläutere, wie sich moderne Piraterie auf den weltweiten Seehandel auswirkt.

_____

_____

_____

netzwerk lernen
zur Vollversion

Station 9

Name: _____

Der Ölpreis (2)

Aufgabe 2

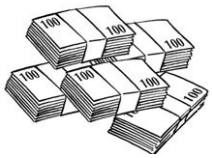

Beschreibe, welche Auswirkungen ein hoher bzw. niedriger Ölpreis auf die Wirtschaft und den Alltag der Bevölkerung haben könnte.

Hoher Ölpreis	Niedriger Ölpreis

Aufgabe 3

Rohöl wird nicht nur zur Produktion von Benzin oder die Erzeugung von Strom in Kraftwerken verwendet. Auch für die Herstellung zahlreicher weiterer Produkte ist Rohöl ein wichtiger Rohstoff.

Recherchiere, in welchen alltäglichen Produkten Rohöl verwendet wird.
Trage diese hier ein:

_____
_____
_____
_____
_____
_____
_____
_____
_____
_____

VORSCHAU

Jakob Mohn: Erdkunde an Stationen Spezial: Globalisierung – Die Welt wächst zusammen
© Auer Verlag

netzwerk lernen

zur Vollversion