Inhaltsverzeichnis

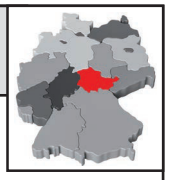

Thüringen

Seiten

Vorwort **4**

Arbeitspass **4**

1 Lage, Wappen, Bevölkerung ..... **5 – 14**
Die Einteilung der Kreise 6
Mein Landkreis, meine Stadt 7
Großstadt, Stadt, Kleinstadt, Dorf 8
Städte im Überblick – wo liegt welche 9
Ortstafeln und Landkarten ..... 10 – 11
Verkehrswege 12
Geschichte 13
Die Wirtschaft 14

2 Thüringens Städte ..... **15 – 19**
Erfurt 15
Weimar 16
Gera 17
Jena 18
Eisenach 19
Die Wartburg und Luther 20

3 Die Flüsse Thüringens **21**

4 Der Thüringer Wald ..... **22 – 25**
Die Saalfelder Feengrotten 22
Der Nationalpark Hainich / Das Grüne Band 23
Der Kyffhäuser 24
Thüringer Burgenland – Drei Gleichen / Schlösser in Thüringen 25

5 Thüringens Küche **26**

6 Aufgaben zu Thüringen ..... **27 – 30**

7 Steckbrief „Mein Wohnort“ **31**

8 Die Lösungen ..... **32 – 39**

Bedeutung der Symbole:

Einzelarbeit

Partnerarbeit

Arbe

Schreibe in dein Heft / in deinen Ordner

Thüringen – Bestell-Nr. P12 495
VERLAG

netzwerk lernen
zur Vollversion
VORSCHAU

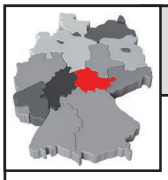

Vorwort / Arbeitspass

Liebe Kolleginnen und Kollegen,

früher gab es in der 3. und 4. Klasse in der Volksschule ein Fach „Heimatkunde“. Die Schüler* kannten ihre Umgebung. Heute wissen sie zwar Bescheid über die Agrarwirtschaft am Nil, aber ob der Rhein nun in die Nordsee oder Ostsee mündet, ist nicht allen klar.

Es besteht also Nachholbedarf!

In diesem Band lernen die Schüler ihr näheres Umfeld kennen, erfahren einiges über das Leben in Stadt und Dorf, über Landschaften, Flüsse, Städte, Sehenswürdigkeiten und die politische Struktur.

Jedes Gebiet kann einzeln besprochen werden. Viele Seiten sind „ortsübergreifend“ einsetzbar.

Die Karte auf der letzten Seite hilft den Schülern bei der Orientierung. Eine große Karte von Thüringen ist jedoch genauso hilfreich.

Viel Freude und Erfolg beim Einsatz der vorliegenden Kopiervorlagen wünschen Ihnen der Kohl-Verlag und

Gabriela Rosenwald

**Mit Schülern bzw. Lehrern sind im ganzen Band selbstverständlich auch die Schülerinnen und Lehrerinnen gemeint.*

VORSCHAU

Arbeitspass

Name: _____ Klasse: _____

Aufgabe / Seite	Titel / Thema	begonnen	erledigt

Lernen mit Erfolg VERLAG Thüringen – Bestell-Nr. P12 495

netzwerk lernen
zur Vollversion

1 Lage, Wappen, Bevölkerung

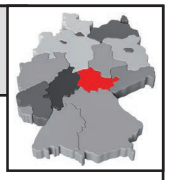

Seit 1990 wird die Bundesrepublik Deutschland aus 16 Bundesländern gebildet. Die Bundesländer teilen sich weiter auf in Regierungsbezirke, (Land)kreise, kreisfreie Städte, in Gemeinden und Gemeindeverbände. Regierungsbezirke gibt es nur noch in Baden-Württemberg, Bayern, Hessen und Nordrhein-Westfalen. Dazu gibt es drei sogenannte Stadtstaaten, d. h. die Stadt ist zugleich Bundesland. Dazu gehören Hamburg, Bremen und Berlin.

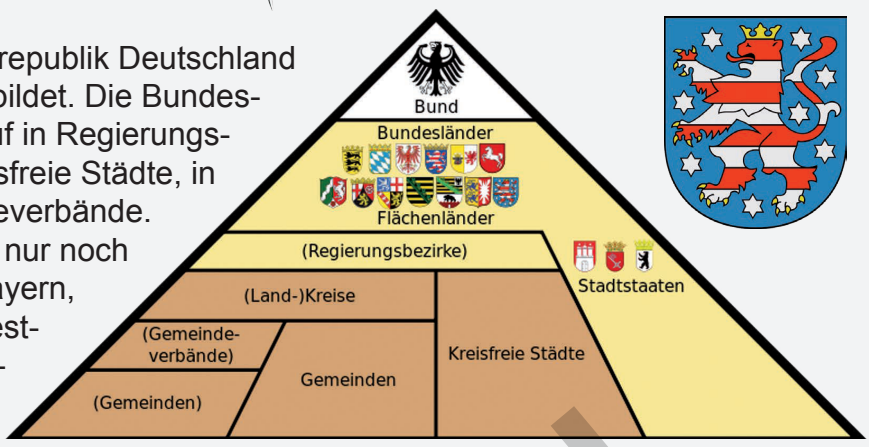

Der Freistaat Thüringen gehört mit etwa 2,2 Millionen Einwohnern und einer Fläche von rund 16.000 Quadratkilometern zu den kleineren Ländern der Bundesrepublik. Landeshauptstadt und zugleich größte Stadt ist Erfurt. „Freistaat“ ist die im 19. Jahrhundert entstandene Bezeichnung für einen von keinem Monarchen regierten, freien Staat.

Aufgabe 1: *Male das Wappen mit den richtigen Farben an. Male auch das Land Thüringen in der Karte farbig an.*



Aufgabe 2: *Thüringen ist ein Binnenland. Es liegt mitten in Deutschland und ist von fünf Bundesländern umschlossen. Setze die Namen der Länder aus den folgenden Silben zusammen:*

An – Bay – der – ern – halt – Hes – Nie – Sach –

VORSCHAU

netzwerk lernen
zur Vollversion

Thüringen – Bestell-Nr. P12 495
VERLAG

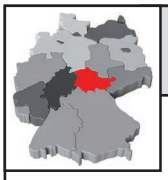

Die Einteilung der Kreise

Das Land Thüringen gliedert sich in 17 Landkreise und 6 kreisfreie Städte. Dazu gibt es 849 Gemeinden und teilweise Verwaltungsgemeinschaften, die im Zusammenschluss mehrerer kleiner Gemeinden ihre Verwaltungsaufgaben gemeinsam erledigen.

Landkreis	Sitz der Verwaltung
Altenburger Land	Altenburg
Eichsfeld	Heilbad Heiligenstadt
Gotha	Gotha
Greiz	Greiz
Hildburghausen	Hildburghausen
Ilm-Kreis	Arnstadt
Kyffhäuserkreis	Sondershausen
Nordhausen	Nordhausen
Saale-Holzland-Kreis	Eisenberg
Saale-Orla-Kreis	Schleiz
Saalfeld-Rudolstadt	Saalfeld / Saale
Schmalkalden-Meiningen	Meiningen
Sömmerda	Sömmerda
Sonneberg	Sonneberg
Unstrut-Hainich-Kreis	Mühlhausen / Thüringen
Wartburgkreis	Bad Salzungen
Weimarer Land	Apolda

Kreisfreie Städte mit Autokennzeichen

1. Eisenach (EA)
2. Erfurt (EF)
3. Gera (G)
4. Jena (J)
5. Suhl (SHL)
6. Weimar (WE)

VORSCHAU

Aufgabe 3:

Zeichne die Grenzen der Regierungsbezirke mit einem roten Stift nach. Markiere auch die kreisfreien Städte.

Aufgabe 4: *Markiere rot in der Karte und in d*

netzwerk lernen
zur Vollversion

Thüringen – Bestell-Nr. P12 495
VERLAG

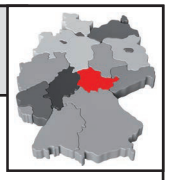

Mein Landkreis – meine Stadt

VORSCHAU

Aufgabe 5: *Zeichne die Grenzen des Landkreises oder der Stadt, in der du wohnst, oben in die Karte ein.*

Aufgabe 6: *Finde heraus, wo genau du wohnst. Ist es ein Landkreis oder eine kreisfreie Stadt?*

_____

Aufgabe 7: *Welche größeren Städte und Landkreise liegen um deinen Wohnort herum?*

_____

Thüringen – Bestell-Nr. P12 495
VERLAG

netzwerk lernen
zur Vollversion

4 Der Thüringer Wald

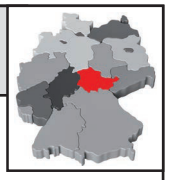

Der Nationalpark Hainich

Der Nationalpark Hainich wurde1997 gegründet. Er ist der 13. Nationalpark Deutschlands und der einzige in Thüringen. Der Hainich gehört zu den letzten Überbleibseln der Urwälder, die einst weite Teile Mitteleuropas bedeckten. Seit 2011 ist der Nationalpark Teil der Welterbestätte. Der 75 km² große Park befindet sich im Westen Thüringens östlich der Werra und ist Teil des Naturparkes Eichsfeld-Hainich-Werratal. Der Wald ist das größte zusammenhängende Laubwaldgebiet Deutschlands und besitzt eine artenreiche Tier- und Pflanzenwelt. Zu den Attraktionen gehören die selten gewordene Wildkatze und etliche Fledermausarten. Dazu gibt es einen etwa 500 m langen Baumkronenpfad. Hier kann man mehrere Meter über dem Boden durch den Wald streifen.

Im Nationalpark Hainich soll wieder ein mitteleuropäischer Urwald entstehen, in dem man der Natur freien Lauf lässt und die Flächen nicht bewirtschaftet. Vor allem der Laubwald aus Rotbuchen, Eschen, Ahorn und Linden soll sich entwickeln.

Das grüne Band

Der Grenzstreifen zwischen der DDR und der BRD war jahrzehntelang fast unberührt von Menschen. Viele bedrohte Tierarten ließen sich hier nieder. Nach der Wiedervereinigung im Jahr 1990 nutzte man dies zur Einrichtung eines Naturschutzprojektes: Es nennt sich Grünes Band Deutschland. Es ist fast 1400 km lang, 763 km davon liegen in Thüringen.

Hier richtete man an der ehemaligen Grenze verschiedene Schutzgebiete ein, die Heimat für viele Tier- und Pflanzenarten sind: Seltene Orchideen wie Frauenschuh, das Braunkehlchen, der Neuntöter, der Schwarzstorch, der Eisvogel und der Fischotter siedelten sich erfolgreich an.

Aufgabe 2:

a) *Was findet man im Hainich Besonderes?*

b) *Was soll sich dort wieder entwickeln, was ist das Ziel?*

c) *Wie entstand das Naturschutzprojekt Grünes Band?*

d) *Durch welche Bundesländer zieht sich das Grüne Band?*

e) *Welche seltenen Tiere siedelte*

VORSCHAU

Thüringen – Bestell-Nr. P12 495
VERLAG

netzwerk lernen
zur Vollversion

4 Der Thüringer Wald

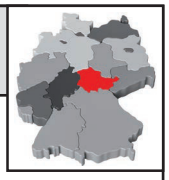

Thüringer Burgenland – Drei Gleichen

Inmitten des Städtedreiecks Gotha – Erfurt – Arnstadt liegt das Thüringer Burgenland Drei Gleichen. Schon weithin sichtbar thronen auf drei Bergkegeln drei stolze Landgrafenburgen: die Mühlburg, die Burg Gleichen und die Veste Wachsenburg. Die Mühlburg ist das älteste erhaltene Gebäude Thüringens und stammt aus dem Jahr 704.
Sie sind umwoben von Sagen und Legenden über lodernde Brände, grausame Raubritter, entführte Königstöchter und mittelalterliche Liebesaffären. Und einer dieser Legenden verdankt das Gebiet seinen Namen. Nämlich der vom gleichzeitigen Blitzeinschlag in alle drei Burgen im Jahre 1231. Wie drei riesige Fackeln sollen sie auf ihren drei Bergen gelodert und die Dörfer, Wiesen und Felder hell erleuchtet haben. Fortan – so die Sage – nannte das Volk die Burgen und das Land drum herum nur noch „Die Drei Gleichen“.

Aufgabe 4: *Schreibe eine spannende Geschichte über die Drei Gleichen:*

- „Die entführte Königstochter“ *oder*
- „Der böse Raubritter“ *oder*
- „Das unheimliche Burgverlies“

Schlösser in Thüringen

Vor etwa 100 Jahren gab es in Thüringen noch acht Monarchien mit eigener Residenz. Diese Residenzen sind heute die größten und bedeutendsten Schlösser Thüringens. Hauptsitz der Ernestiner war Weimar, wo heute das Weimarer Stadtschloss ein umfangreiches Museum beherbergt. Das Schloss Friedenstein in Gotha war Sitz des Herzogs von Sachsen-Gotha und wird heute ebenfalls größtenteils als Museum genutzt. Weitere Residenzen waren das Schloss Altenburg in Altenburg. Es beherbergt das Schloss- und Spielkartenmuseum und wird als Veranstaltungsort für viele kulturelle Ereignisse genutzt. Auch im Schloss Elisabethenburg in Meiningen finden sich Museen und Veranstaltungsräume.

Aufgabe 5:

Zeichne die Städte in der Karte ein, in denen die Schlösser liegen.

VORSCHAU

netzwerk lernen
zur Vollversion

Thüringen – Bestell-Nr. P12 495
VERLAG

1 Lage, Wappen, Bevölkerung

23. Unser Sandmännchen (kurz auch Sandmann) ist eine deutsche Kindersendung, die seit 1959 produziert wird. Von 1959 bis 1989 wurde im geteilten Deutschland sowohl ein Sandmännchen beim Deutschen Fernsehfunk der DDR (unter dem Titel Unser Sandmännchen), als auch bei der ARD in der Bundesrepublik Deutschland (unter dem Titel Sandmännchen) produziert und gesendet.

24. Die wichtigsten Wirtschaftszweige sind Optik, Spezialglas und Autoindustrie.

25. Im Text erwähnt werden die Firmen Fuchs, Jenoptik, Bosch, K + S und Schott.

VORSCHAU

VERLAG Thüringen – Bestell-Nr. P12 495

netzwerk lernen
zur Vollversion

2 Thüringens Städte

6.

1180	Eisenach entstand aus 3 Marktsiedlungen und wird urkundlich erwähnt.
12. Jhd.	Eine Stadtmauer wird gebaut, daran erinnert noch das Nikolai-Tor.
1685	Der berühmte Komponist Johann Sebastian Bach wurde in Eisenach geboren.
19. Jhd.	Die Kaufleute Eichel, Pfennig und Streiber gründeten die ersten Industriebetriebe.
1862	Eisenach erhielt ein Gaswerk.
1874	Ab nun gab es auch ein Wasserwerk.
1887	Das Postamt entstand.
1896	Die Fahrzeugfabrik Eisenach wurde gegründet.

7. Martin Luther wurde am 10. November 1483 in Eisleben geboren. Mit 18 Jahren beginnt er das Studium der Rechtswissenschaften an der Universität Erfurt.
1505 tritt Luther in das Kloster in Erfurt ein und wird Augustinermönch.
Ab 1511 lebt Luther in der Stadt Wittenberg. Dort beginnt er zu predigen. Er wird Doktor der Theologie und lehrt als Professor an der Universität Wittenberg.
Weil Martin Luther viele Dinge an der damaligen Kirche nicht gut findet, verfasst er 95 Thesen und veröffentlicht diese am 31. Oktober 1517. Der Tag zählt bis heute als Beginn der Reformation. Diese Thesen sorgen für viel Diskussion. Luther soll die Thesen widerrufen. Als er sich weigert, wird er aus der Kirche ausgeschlossen und mit der Reichsacht belegt. Luthers Landesherr Friedrich der Weise versteckt ihn daraufhin auf der Wartburg in Eisenach. Dort lebt er als „Junker Jörg“ und übersetzt in nur 11 Wochen das Neue Testament aus dem Griechischen ins Deutsche. Im März 1522 kehrt Luther nach Wittenberg zurück. Im September 1522 erscheint Luthers Übersetzung des Neuen Testaments im Druck und bekam daher den Namen „Septembertestament“.

VORSCHAU

3 Flüsse in Thüringen

1.

a) Ergibt sich durch die Karte.

b) Ergibt sich durch die Karte.

c) An der Saale liegen Städte wie Saalfeld und Jena.
Meinigen und Bad Salzungen liegen an der Werra.
Die Unstrut durchfließt die Städte Mühlhausen und Sömmerda.
Die Ilm fließt durch die Städte Ilmenau und Weimar.

d) Heute dienen die Talsperren hauptsächlich der Energiegewinnung, aber auch dem Hochwasserschutz und der Naherholung.

Thüringen – Bestell-Nr. P12 495
VERLAG

netzwerk lernen
zur Vollversion