A: 21 : ⬠ = 7	B: 7 : ⬠ = 7	C: 56 : ⬠ = 7
D: 35 : ⬠ = 7	E: 49 : ⬠ = 7	F: 28 : ⬠ = 7
G: 70 : ⬠ = 7	H: 63 : ⬠ = 7	I: 42 : ⬠ = 7
J: 14 : ⬠ = 7	K:	L:

A	8
B	4
C	9
D	6
E	2
F	10
G	3
H	7
I	1
J	5
K	
L	

A: 56 : ⬠ = 7	B: 28 : ⬠ = 7	C: 63 : ⬠ = 7
D: 42 : ⬠ = 7	E: 14 : ⬠ = 7	F: 70 : ⬠ = 7
G: 21 : ⬠ = 7	H: 49 : ⬠ = 7	I: 7 : ⬠ = 7
J: 35 : ⬠ = 7	K: 	L: 

A	3
B	1
C	8
D	5
E	7
F	4
G	10
H	9
I	6
J	2
K	
L	

C1 Einmaleins der 7 (Teilaufgaben)

Wie heißt die Lösung?

Lösungen der Rückseite

Knicke das Blatt
an den drei gestrichelten Linien
nach hinten
und stelle es so auf:



© DBGM angemeldet

netzwerk lernen
zur Vollversion

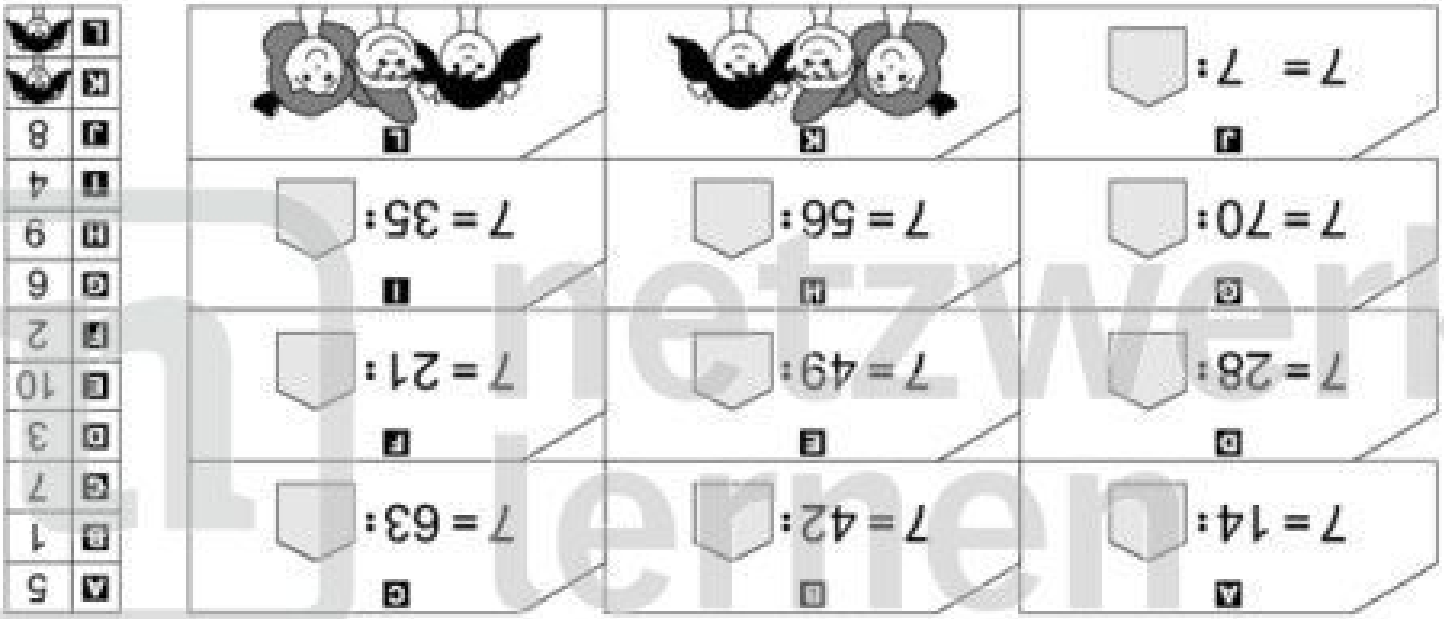

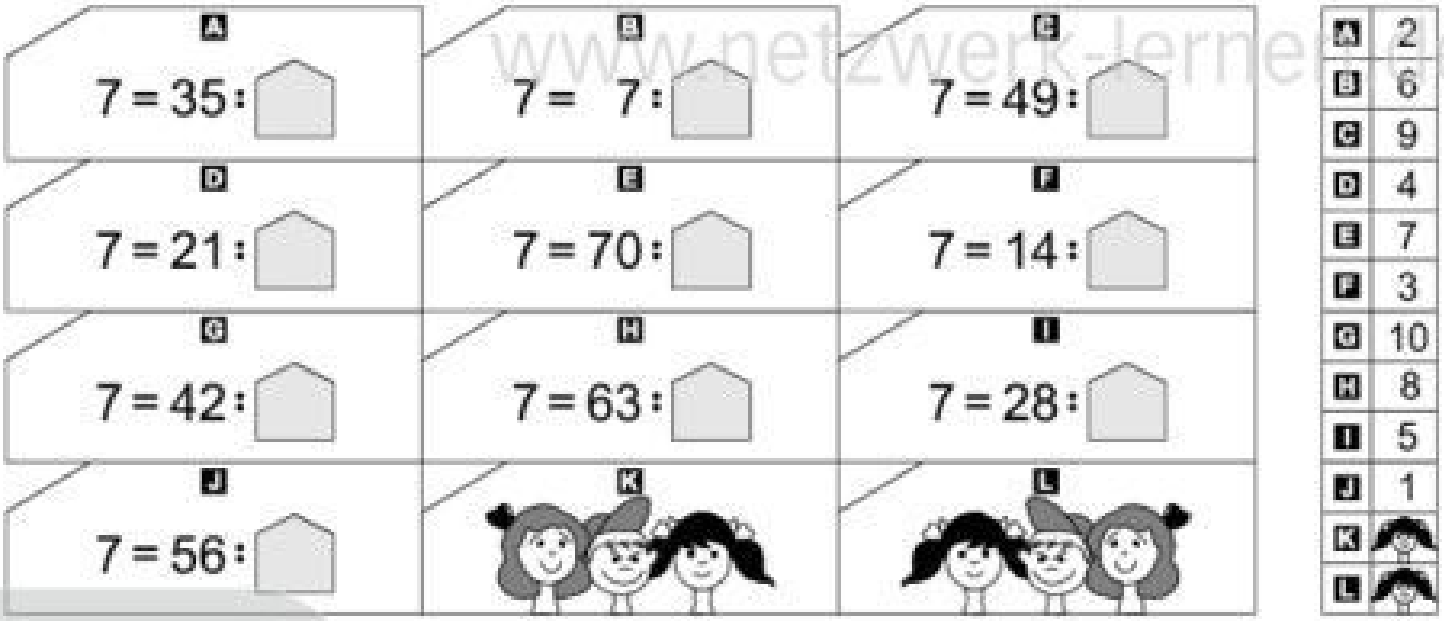

D1 Einmaleins der 7 (Teilaufgaben)

Wie heißt die Lösung?

Lösungen der Rückseite

Knicke das Blatt
an den drei gestrichelten Linien
nach hinten
und stelle es so auf:



© DBGM angemeldet

netzwerk lernen

zur Vollversion