Name: Klasse: Datum:

Kettenaufgaben zum 1:1 der 3

Rechne jede Aufgabe aus und schreibe die Lösung in das Feld neben der Aufgabe! Suche unten im Kontrollfeld die Lösungszahl und male dort das Lösungsfeld mit dem gleichen Muster aus, das du über der Aufgabe siehst! (Statt Schwarz kannst du auch eine andere Farbe verwenden.) Wenn du alle Aufgaben richtig gerechnet hast, entsteht ein symmetrisches Muster.

1 $27:3+10=$	2 $21:3+30=$	3 $9:3+20=$
4 $18:3+10=$	5 $12:3+30=$	6 $24:3+10=$
7 $6:3+20=$	8 $15:3+30=$	9 $27:3+20=$
10 $9:3+30=$	11 $21:3+10=$	12 $12:3+20=$
13 $18:3+30=$	14 $24:3+20=$	15 $3:3+30=$
16 $15:3+10=$	17 $12:3+10=$	18 $18:3+20=$

Kontrollfeld

24	18	23	17	35	28
14	29	36	34	26	37
19	31	22	15	16	33

netzwerk lernen
www.netzwerk-lernen.de
zur Vollversion

Name: Klasse: Datum:

Kettenaufgaben zum 1:1 der 3 (Lösungen)

Rechne jede Aufgabe aus und schreibe die Lösung in das Feld neben der Aufgabe! Suche unten im Kontrollfeld die Lösungszahl und male dort das Lösungsfeld mit dem gleichen Muster aus, das du über der Aufgabe siehst! (Statt Schwarz kannst du auch eine andere Farbe verwenden.) Wenn du alle Aufgaben richtig gerechnet hast, entsteht ein symmetrisches Muster.

1 27 : 3 + 10 = 19	2 21 : 3 + 30 = 37	3 9 : 3 + 20 = 23
4 18 : 3 + 10 = 16	5 12 : 3 + 30 = 34	6 24 : 3 + 10 = 18
7 6 : 3 + 20 = 22	8 15 : 3 + 30 = 35	9 27 : 3 + 20 = 29
10 9 : 3 + 30 = 33	11 21 : 3 + 10 = 17	12 12 : 3 + 20 = 24
13 18 : 3 + 30 = 36	14 24 : 3 + 20 = 28	15 3 : 3 + 30 = 31
16 15 : 3 + 10 = 15	17 12 : 3 + 10 = 14	18 18 : 3 + 20 = 26

Kontrollfeld



netzwerk lernen
www.netzwerk-lernen.de
zur Vollversion

Name: Klasse: Datum:

Kettenaufgaben zum 1:1 der 4

Rechne jede Aufgabe aus und schreibe die Lösung in das Feld neben der Aufgabe! Suche unten im Kontrollfeld die Lösungszahl und male dort das Lösungsfeld mit dem gleichen Muster aus, das du über der Aufgabe siehst! (Statt Schwarz kannst du auch eine andere Farbe verwenden.) Wenn du alle Aufgaben richtig gerechnet hast, entsteht ein symmetrisches Muster.

1 $20:4+20=$	2 $8:4+10=$	3 $32:4+30=$
4 $16:4+10=$	5 $24:4+20=$	6 $12:4+10=$
7 $28:4+20=$	8 $36:4+30=$	9 $32:4+10=$
10 $4:4+20=$	11 $20:4+30=$	12 $36:4+10=$
13 $28:4+30=$	14 $12:4+20=$	15 $24:4+10=$
16 $16:4+30=$	17 $32:4+20=$	18 $8:4+30=$

Kontrollfeld

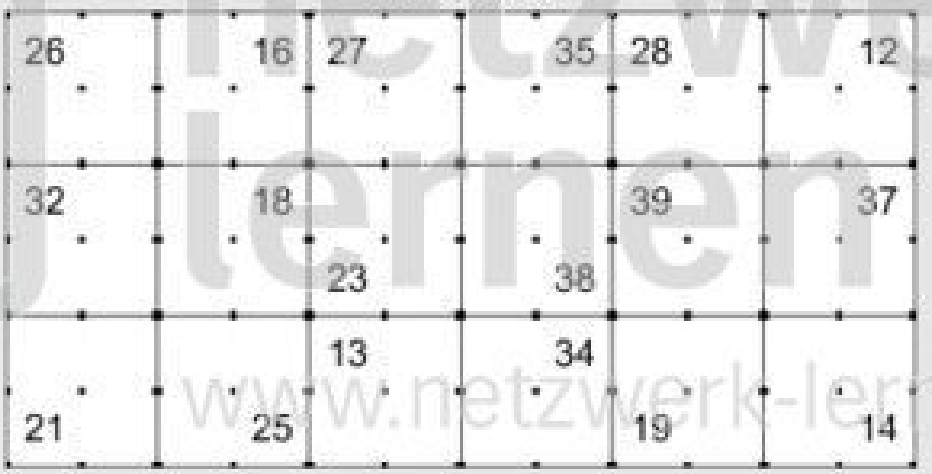

netzwerk lernen
www.netzwerk-lernen.de
zur Vollversion

Name: Klasse: Datum:

Kettenaufgaben zum 1:1 der 4 (Lösung)

Rechne jede Aufgabe aus und schreibe die Lösung in das Feld neben der Aufgabe! Suche unten im Kontrollfeld die Lösungszahl und male dort das Lösungsfeld mit dem gleichen Muster aus, das du über der Aufgabe siehst! (Statt Schwarz kannst du auch eine andere Farbe verwenden.) Wenn du alle Aufgaben richtig gerechnet hast, entsteht ein symmetrisches Muster.

1 $20:4+20=$ 25	2 $8:4+10=$ 12	3 $32:4+30=$ 38
4 $16:4+10=$ 14	5 $24:4+20=$ 26	6 $12:4+10=$ 13
7 $28:4+20=$ 27	8 $36:4+30=$ 39	9 $32:4+10=$ 18
10 $4:4+20=$ 21	11 $20:4+30=$ 35	12 $36:4+10=$ 19
13 $28:4+30=$ 37	14 $12:4+20=$ 23	15 $24:4+10=$ 16
16 $16:4+30=$ 34	17 $32:4+20=$ 28	18 $8:4+30=$ 32

Kontrollfeld

netzwerk lernen
www.netzwerk-lernen.de
netzwerk lernen
zur Vollversion

Name: Klasse: Datum:

Kettenaufgaben zum 1:1 der 5

Rechne jede Aufgabe aus und schreibe die Lösung in das Feld neben der Aufgabe! Suche unten im Kontrollfeld die Lösungszahl und male dort das Lösungsfeld mit dem gleichen Muster aus, das du über der Aufgabe siehst! (Statt Schwarz kannst du auch eine andere Farbe verwenden.) Wenn du alle Aufgaben richtig gerechnet hast, entsteht ein symmetrisches Muster.

1 30 : 5 + 10 =	2 20 : 5 + 30 =	3 40 : 5 + 10 =
4 10 : 5 + 20 =	5 25 : 5 + 30 =	6 45 : 5 + 10 =
7 35 : 5 + 30 =	8 15 : 5 + 20 =	9 20 : 5 + 20 =
10 30 : 5 + 30 =	11 40 : 5 + 20 =	12 10 : 5 + 30 =
13 25 : 5 + 10 =	14 45 : 5 + 20 =	15 15 : 5 + 30 =
16 35 : 5 + 10 =	17 5 : 5 + 20 =	18 45 : 5 + 30 =

Kontrollfeld

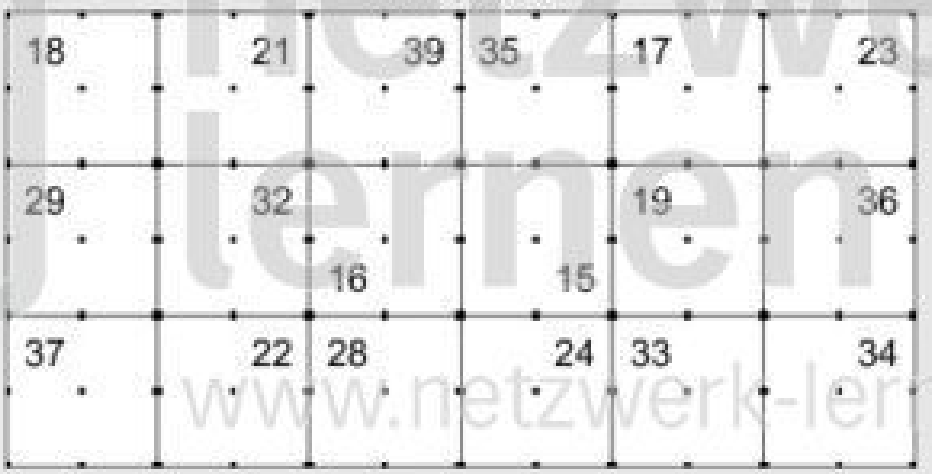

netzwerk lernen
www.netzwerk-lernen.de
zur Vollversion

Name: Klasse: Datum:

Kettenaufgaben zum 1:1 der 5 (Lösung)

Rechne jede Aufgabe aus und schreibe die Lösung in das Feld neben der Aufgabe! Suche unten im Kontrollfeld die Lösungszahl und male dort das Lösungsfeld mit dem gleichen Muster aus, das du über der Aufgabe siehst! (Statt Schwarz kannst du auch eine andere Farbe verwenden.) Wenn du alle Aufgaben richtig gerechnet hast, entsteht ein symmetrisches Muster.

1 30 : 5 + 10 = 16	2 20 : 5 + 30 = 34	3 40 : 5 + 10 = 18
4 10 : 5 + 20 = 22	5 25 : 5 + 30 = 35	6 45 : 5 + 10 = 19
7 35 : 5 + 30 = 37	8 15 : 5 + 20 = 23	9 20 : 5 + 20 = 24
10 30 : 5 + 30 = 36	11 40 : 5 + 20 = 28	12 10 : 5 + 30 = 32
13 25 : 5 + 10 = 15	14 45 : 5 + 20 = 29	15 15 : 5 + 30 = 33
16 35 : 5 + 10 = 17	17 5 : 5 + 20 = 21	18 45 : 5 + 30 = 39

Kontrollfeld



netzwerk lernen
www.netzwerk-lernen.de
zur Vollversion

Name: Klasse: Datum:

Kettenaufgaben zum 1:1 der 6

Rechne jede Aufgabe aus und schreibe die Lösung in das Feld neben der Aufgabe! Suche unten im Kontrollfeld die Lösungszahl und male dort das Lösungsfeld mit dem gleichen Muster aus, das du über der Aufgabe siehst! (Statt Schwarz kannst du auch eine andere Farbe verwenden.) Wenn du alle Aufgaben richtig gerechnet hast, entsteht ein symmetrisches Muster.

1 $54:6+30=$	2 $42:6+20=$	3 $18:6+10=$
4 $36:6+20=$	5 $24:6+10=$	6 $48:6+30=$
7 $12:6+10=$	8 $30:6+20=$	9 $36:6+30=$
10 $24:6+20=$	11 $42:6+10=$	12 $18:6+30=$
13 $54:6+20=$	14 $30:6+10=$	15 $6:6+30=$
16 $48:6+20=$	17 $24:6+30=$	18 $36:6+10=$

Kontrollfeld

36	15	38	34	27	33
16	13	17	12	28	25
26	24	29	39	14	31

netzwerk lernen
www.netzwerk-lernen.de
zur Vollversion

Name: Klasse: Datum:

Kettenaufgaben zum 1:1 der 6 (Lösung)

Rechne jede Aufgabe aus und schreibe die Lösung in das Feld neben der Aufgabe! Suche unten im Kontrollfeld die Lösungszahl und male dort das Lösungsfeld mit dem gleichen Muster aus, das du über der Aufgabe siehst! (Statt Schwarz kannst du auch eine andere Farbe verwenden.) Wenn du alle Aufgaben richtig gerechnet hast, entsteht ein symmetrisches Muster.

1 54 : 6 + 30 = 39	2 42 : 6 + 20 = 27	3 18 : 6 + 10 = 13
4 36 : 6 + 20 = 26	5 24 : 6 + 10 = 14	6 48 : 6 + 30 = 38
7 12 : 6 + 10 = 12	8 30 : 6 + 20 = 25	9 36 : 6 + 30 = 36
10 24 : 6 + 20 = 24	11 42 : 6 + 10 = 17	12 18 : 6 + 30 = 33
13 54 : 6 + 20 = 29	14 30 : 6 + 10 = 15	15 6 : 6 + 30 = 31
16 48 : 6 + 20 = 28	17 24 : 6 + 30 = 34	18 36 : 6 + 10 = 16

Kontrollfeld



netzwerk lernen
www.netzwerk-lernen.de
zur Vollversion