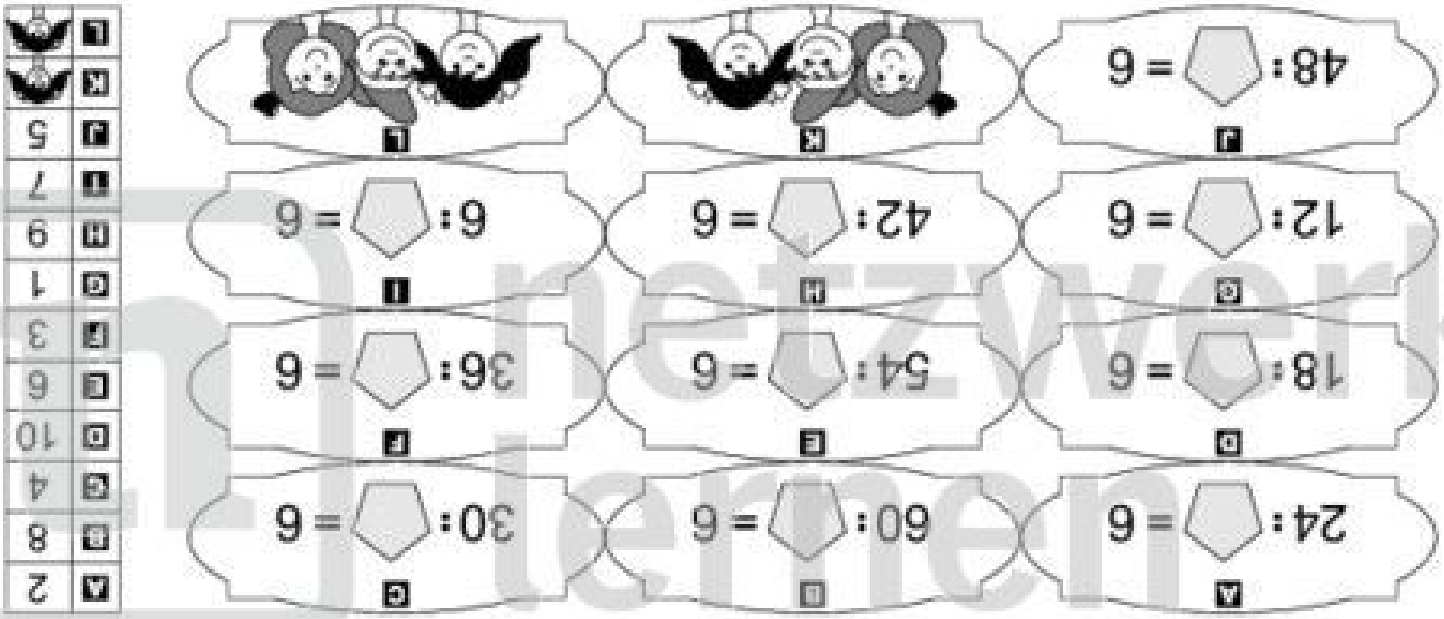

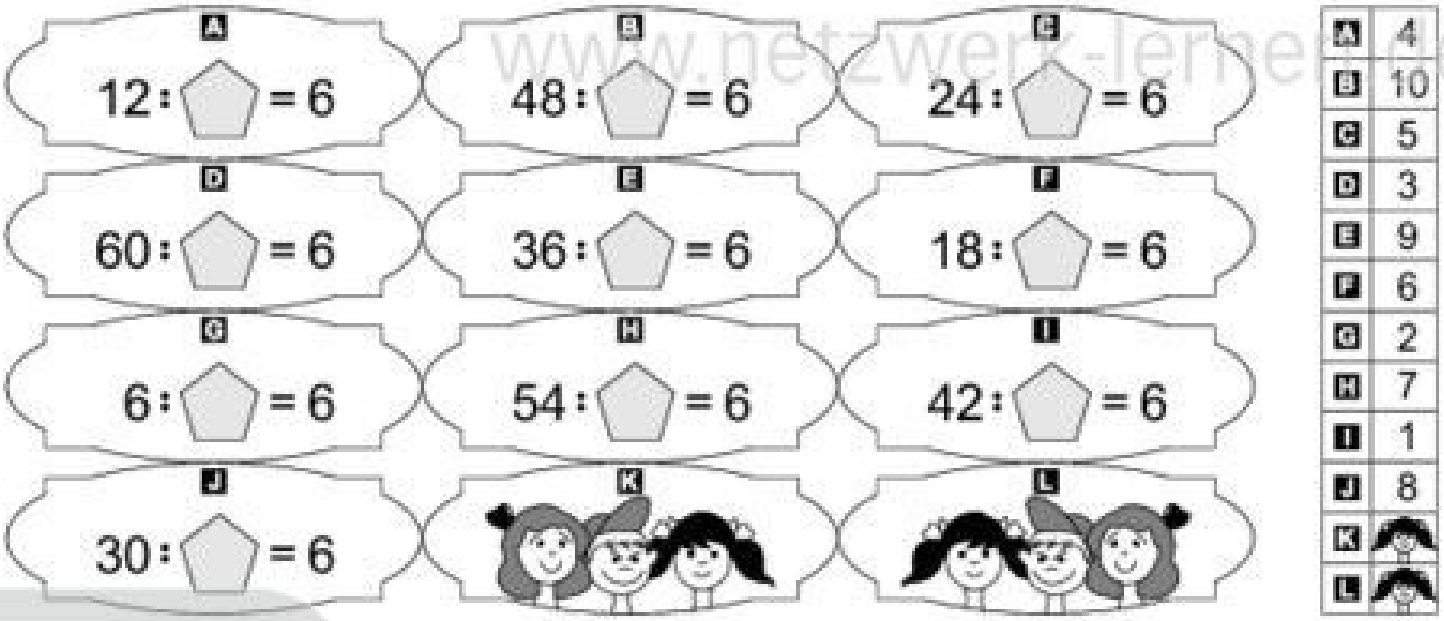

C1 Einmaleins der 6 (Teilaufgaben)

Wie heißt die Lösung?

Lösungen der Rückseite

Knicke das Blatt
an den drei gestrichelten Linien
nach hinten
und stelle es so auf:



© DBGM angemeldet

netzwerk lernen

zur Vollversion

A	3
B	5
C	8
D	2
E	10
F	4
G	6
H	1
I	7
J	9
K	
L	

A 6 = 12 :

B 6 = 36 :

C 6 = 24 :

D 6 = 54 :

E 6 = 6 :

F 6 = 48 :

G 6 = 30 :

H 6 = 18 :

I 6 = 60 :

J 6 = 42 :

K

L

D1 Einmaleins der 6 (Teilaufgaben)

Wie heißt die Lösung?

Lösungen der Rückseite

Knicke das Blatt
an den drei gestrichelten Linien
nach hinten
und stelle es so auf:



© DBGM angemeldet

netzwerk lernen
www.netzwerk-lernen.de
zur Vollversion