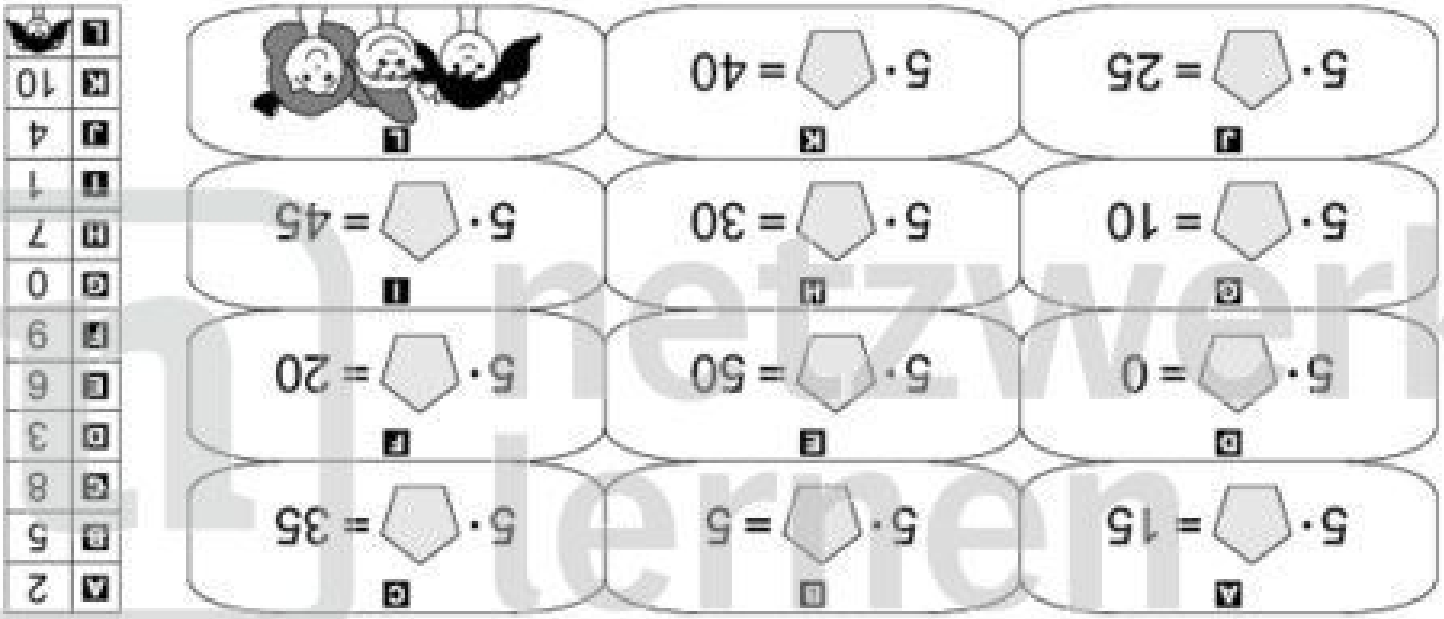

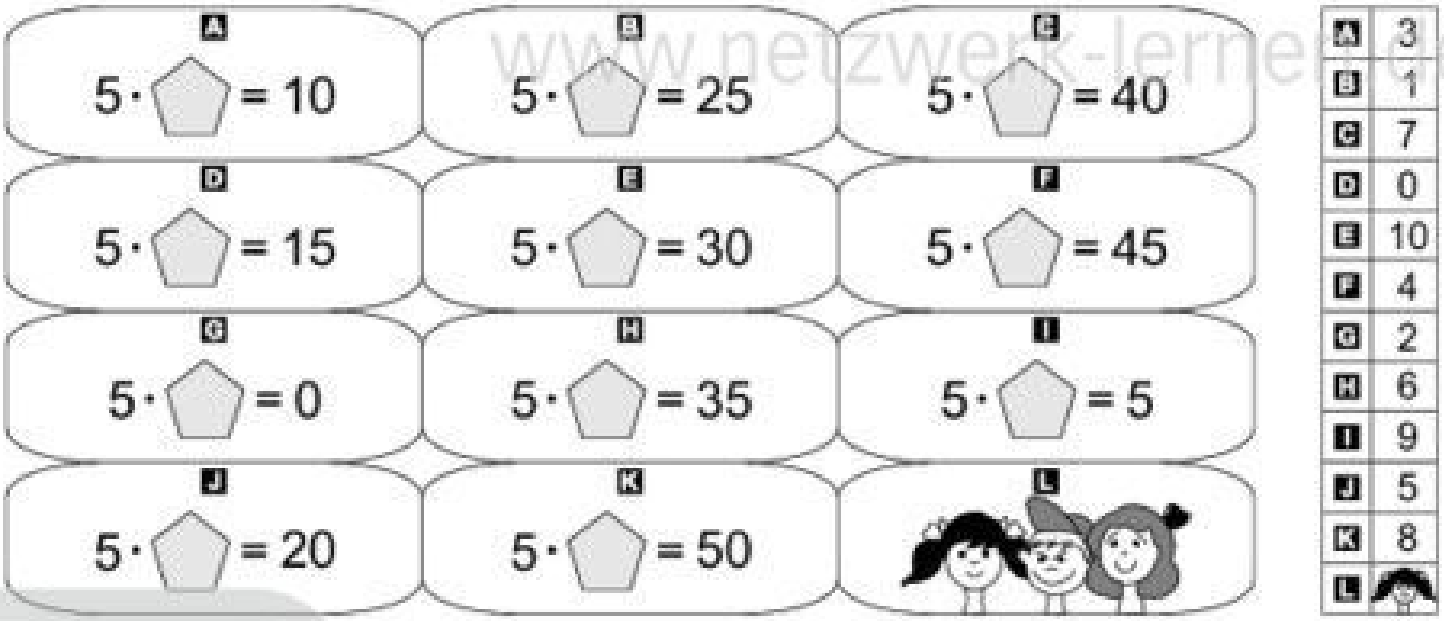

C1 Einmaleins der 5

Wie heißt die Lösung?

Lösungen der Rückseite

Knicke das Blatt
an den drei gestrichelten Linien
nach hinten
und stelle es so auf:



© DBGM angemeldet

netzwerk lernen

zur Vollversion

A	0
B	3
C	6
D	1
E	10
F	5
G	2
H	8
I	4
J	7
K	9
L	

A: $5 = 5 \cdot \square$	B: $30 = 5 \cdot \square$	C: $0 = 5 \cdot \square$
D: $35 = 5 \cdot \square$	E: $20 = 5 \cdot \square$	F: $50 = 5 \cdot \square$
G: $25 = 5 \cdot \square$	H: $10 = 5 \cdot \square$	I: $45 = 5 \cdot \square$
J: $15 = 5 \cdot \square$	K: $40 = 5 \cdot \square$	L:

A: $0 = 5 \cdot \square$	B: $15 = 5 \cdot \square$	C: $30 = 5 \cdot \square$
D: $5 = 5 \cdot \square$	E: $50 = 5 \cdot \square$	F: $25 = 5 \cdot \square$
G: $10 = 5 \cdot \square$	H: $40 = 5 \cdot \square$	I: $20 = 5 \cdot \square$
J: $35 = 5 \cdot \square$	K: $45 = 5 \cdot \square$	L: 

A	1
B	6
C	0
D	7
E	4
F	10
G	5
H	2
I	9
J	3
K	8
L	

D1 Einmaleins der 5

Wie heißt die Lösung?

Lösungen der Rückseite

Knicke das Blatt
an den drei gestrichelten Linien
nach hinten
und stelle es so auf:



www.netzwerk-lernen.de

© DBGM angemeldet

netzwerk lernen

zur Vollversion