Name: _____ Datum: _____

Kompetenztest 3/4

1. Wie viel Geld ist es?

a)

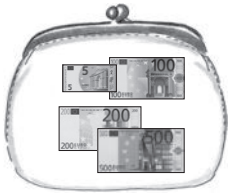

_____

b)



_____

c)



_____

d)

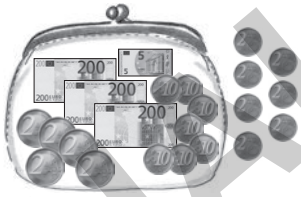

_____

2. Zeichne jeden Betrag mit drei, vier und sechs Scheinen.

a) 500 €

b) 225 €

3. Rätsel mit Geldscheinen:

a) Fajar hat vier Geldscheine.

Wie viel Geld hat sie mindestens? Wie viel Geld hat sie höchstens?

_____

VORSCHAU

Liane Kögel / Stephanie Wunder: Größen in der Grundschule: Geld 1–4
Auer Verlag

netzwerk lernen
zur Vollversion

Kompetenztest 3/4

Name: _____ Datum: _____

b) Julian hat zwei 200 €-Scheine und einen 100 €-Schein.
Er wechselt einen Schein in drei kleinere Scheine.
Welche Scheine hat er jetzt?

_____

4. Wandle um in Euro. Benutze die Kommaschreibweise.

a) 120 ct = _____ € **b)** 250 ct = _____ €

c) 23660 ct = _____ € **d)** 1299 ct = _____ €

5. Welche Einheit ist hier richtig?

a) 112 ____ = 1,12 ____ **b)** 0,52 ____ = 52 ____

c) 3012 ____ = 30,12 ____ **d)** 109,90 ____ = 10990 ____

6. Welche Preise können stimmen?

a)
☐ 1,58 €
☐ 0,60 €
☐ 0,19 €

b)
☐ 0,70 €
☐ 1,99 €
☐ 0,25 €

c)

☐ 2,49 €
☐ 0,99 €
☐ 0,30 €

d)

☐ 0,49 €
☐ 0,94 €
☐ 1,99 €

VORSCHAU

Liane Kögel / Stephanie Wunder: Größen in der Grundschule: Geld 1–4
Auer Verlag

netzwerk lernen
zur Vollversion

Kompetenztest 3/4

Name: _____ Datum: _____

7. Reicht das Geld? Überschlage den Preis zunächst auf volle Euro und kreuze dann an.

a) 0,89 €
+ 1,12 €
+ 1,96 €
+ 8,09 €

_____

☐ ja
☐ nein

b) 2,93 €
+ 0,48 €
+ 0,29 €
+ 2,07 €

_____

☐ ja
☐ nein

Platz für deinen Überschlag:

c) 1,18 €
+ 3,89 €
+ 7,13 €
+ 10,49 €
+ 4,97 €

_____

☐ ja
☐ nein

d) 1,97 €
+ 1,89 €
+ 1,58 €
+ 0,42 €
+ 0,76 €
+ 2,79 €

_____

☐ ja
☐ nein

Platz für deinen Überschlag:

8. Berechne diese Aufgaben. Schaffst du sie auch im Kopf?

a) 0,49 € + 0,39 € = _____ €

b) 6,75 € – 3,40 € = _____ €

c) 75,29 € + 24,45 € = _____ €

d) 10,00 € – 2,50 € – 3,99 € = _____ €

e) 5 · 3,25 € = _____ €

f) 9 · 9,99 € = _____ €

VORSCHAU

Liane Kögel / Stephanie Wunder: Größen in der Grundschule: Geld 1–4
Auer Verlag

netzwerk lernen
zur Vollversion

Name: _____ Datum: _____

11.

a) Ein Mädchen kauft für sich und ihre beiden Geschwister je einen Smoothie und einen Donut. Sie bezahlt 15,70 €. Für welche Smoothies und Donuts können sich die Kinder entschieden haben?

b) Ein Vater kommt an den Smoothie-Stand und kauft für seine Familie Donuts ein. Er zahlt 5,60 €. Wie viele gefüllte Donuts hat er gekauft?

c) Ahmad und Julius kaufen Smoothies. Sie haben gemeinsam 18 € dabei und möchten möglichst viele Smoothies probieren. Was kannst du ihnen empfehlen?

VORSCHAU

liane Kögel / Stephanie Wunder: Größen in der Grundschule: Geld 1–4
Auer Verlag

netzwerk lernen
zur Vollversion