**1 Vorwort** . . . . . 4

**2 Rechen-Ausmalbilder** . . . . . 5

2.1 Nachbarzahlen . . . . . 5

2.2 Größer und kleiner . . . . . 8

2.3 Addition und Subtraktion im ZR bis 10 . . . . . 11

2.4 Addition und Subtraktion im ZR bis 20 (ohne Übertrag) . . . . . 13

2.5 Addition und Subtraktion im ZR bis 20 (mit und ohne Übertrag) . . . . . 16

2.6 Addition und Subtraktion im ZR bis 100 (ohne Übertrag) . . . . . 19

2.7 Addition und Subtraktion im ZR bis 100 (mit und ohne Übertrag) . . . . . 22

2.8 Kettenrechnungen Addition . . . . . 25

2.9 Kettenrechnungen Subtraktion . . . . . 27

2.10 Gerade und ungerade Zahlen . . . . . 29

2.11 Das kleine 1×1 . . . . . 31

2.12 Das kleine 1:1 . . . . . 35

VORSCHAU

netzwerk lernen
© Persen Verlag
zur Vollversion

Liebe Lehrer[1],

mit diesen Rechen-Ausmalbildern können Ihre Schüler in kleinen Einheiten das Rechnen üben. Ob während der Freiarbeitsphasen, als Hausaufgaben oder wenn die anderen Aufgaben erledigt sind: Die vorliegenden Seiten fördern die Rechenkompetenz und ermöglichen den Kindern ein selbstständiges Arbeiten. Eine Kontrolle der Aufgaben erfolgt durch das fertig gemalte Bild.

Die Ausmalbilder steigern sich in der Schwierigkeit. Zunächst werden Nachbarzahlen behandelt sowie die Unterscheidung zwischen größeren und kleineren Zahlen geübt. Anschließend werden Addition und Subtraktion in den Zahlenräum 10, 20 und 100 trainiert. Fortgeführt werden die Seiten dann mit Kettenrechnungen, geraden und ungeraden Zahlen und dem kleinen Einmaleins.

Viel Freude am Rechnen mit Ihrer Klasse!

Ihre

Klara Kirschbaum

VORSCHAU

[1] Wir sprechen hier wegen der besseren Lesbarkeit von Schülern bzw. Lehrern in der verallgemeinernden Form. Selbstverständlich sind auch alle Schülerinnen und Lehrerinnen gemeint.

netzwerk lernen
zur Vollversion

# Auf der Blumenwiese



**Finde die richtigen Nachbarzahlen. Schreibe sie auf.**
**Male die Felder im Bild in der entsprechenden Farbe an.**

| | | | |
|---|---|---|---|
| | 4 | | gelb |
| | 8 | | grün |
| | 12 | | lila |
| | 16 | | orange |
| | 20 | | rot |

VORSCHAU

netzwerk lernen
© Persen Verlag
zur Vollversion

# In der Bibliothek

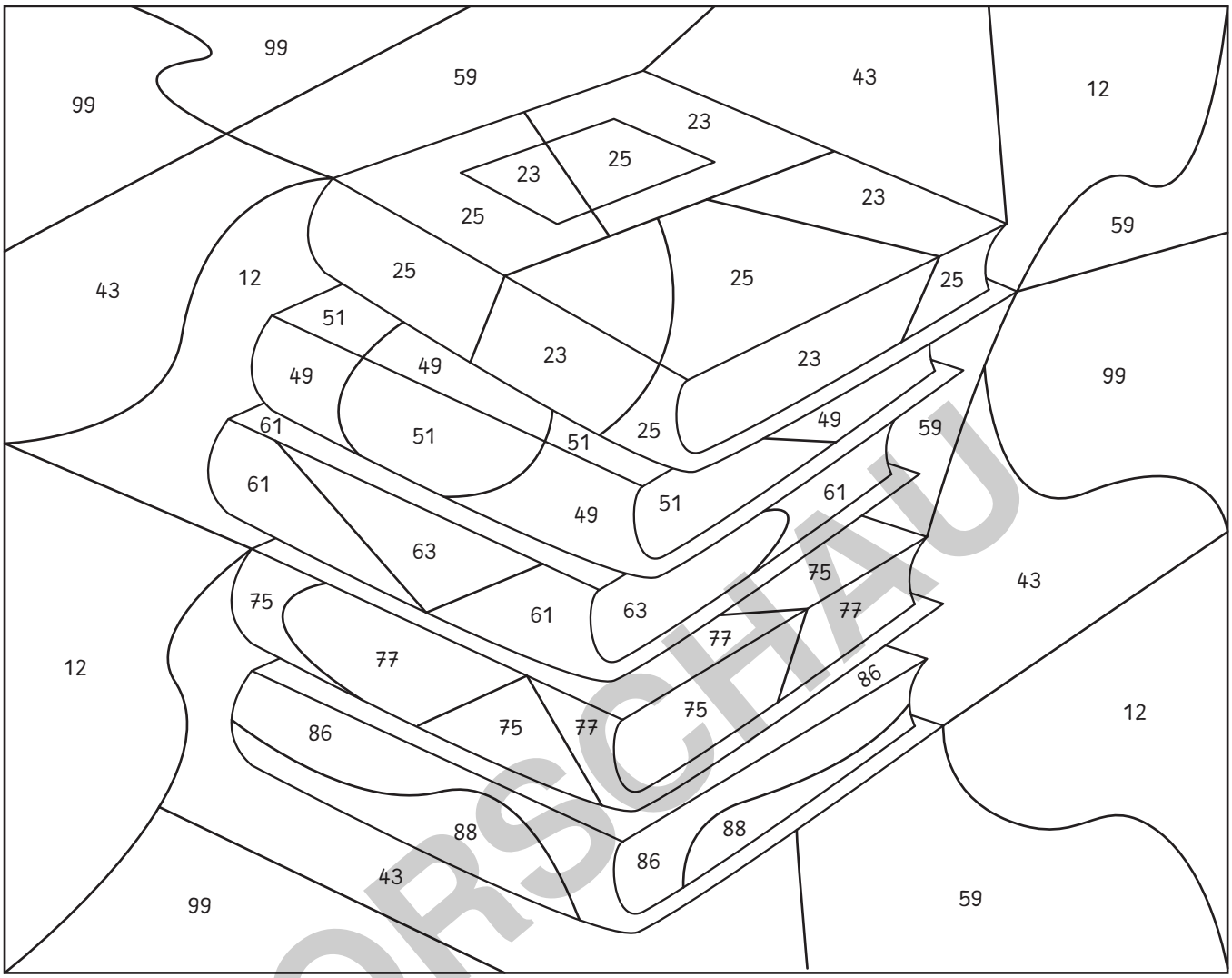


VORSCHAU

**Finde die richtigen Nachbarzahlen. Schreibe sie auf.**
**Male die Felder im Bild in der entsprechenden Farbe an.**

| | | | |
|---|---|---|---|
| | 24 | | gelb |
| | 50 | | grün |
| | 62 | | lila |
| | 76 | | orange |
| | 87 | | rot |

netzwerk lernen
zur Vollversion

# In der Vase

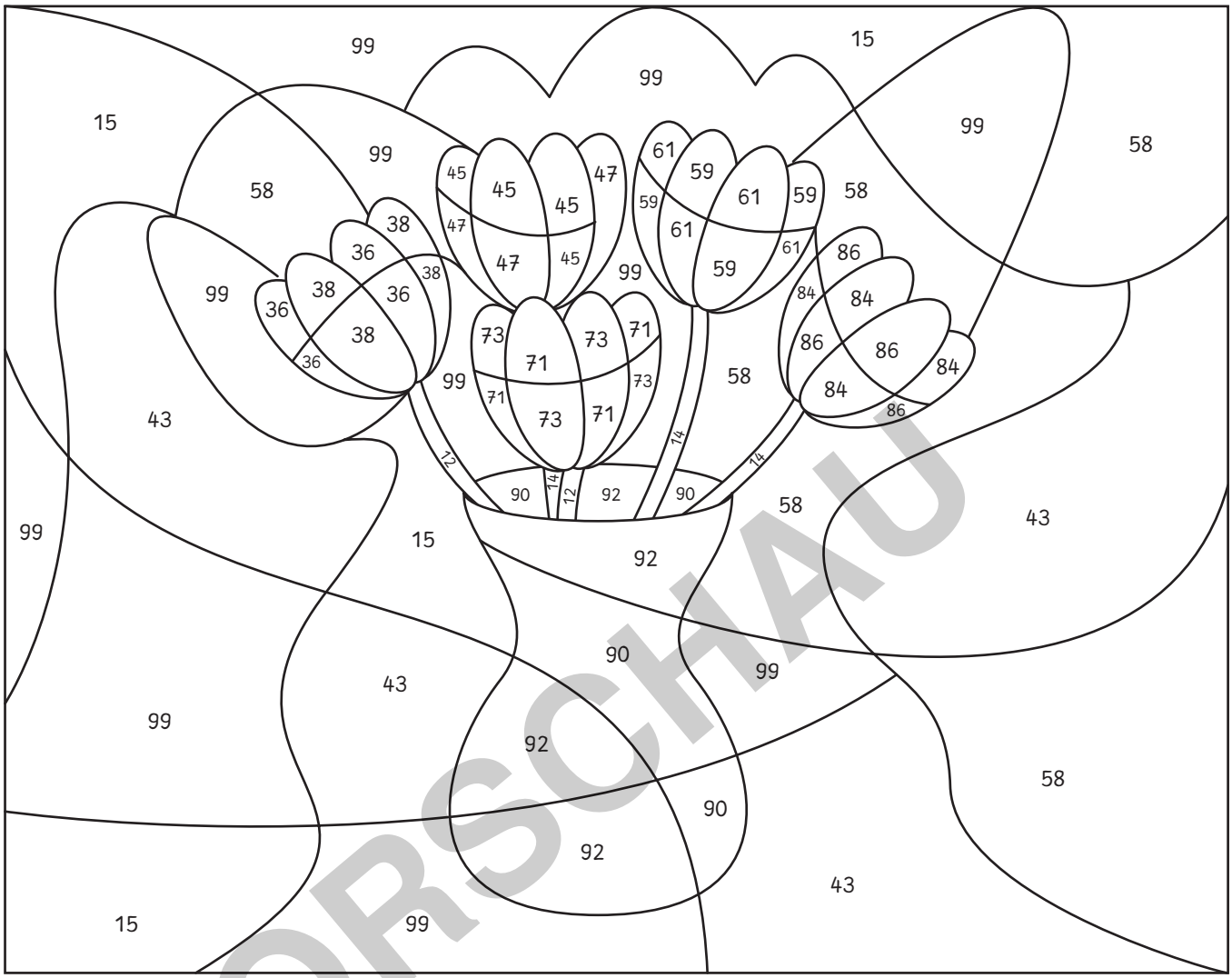


VORSCHAU

**Finde die richtigen Nachbarzahlen. Schreibe sie auf.**
**Male die Felder im Bild in der entsprechenden Farbe an.**

| | | | |
|---|---|---|---|
| | 37 | | gelb |
| | 46 | | blau |
| | 60 | | lila |
| | 72 | | orange |
| | 85 | | rot |
| | 13 | | grün |
| | 91 | | braun |

netzwerk lernen
© Persen Verlag
zur Vollversion

# Auf der Wäscheleine

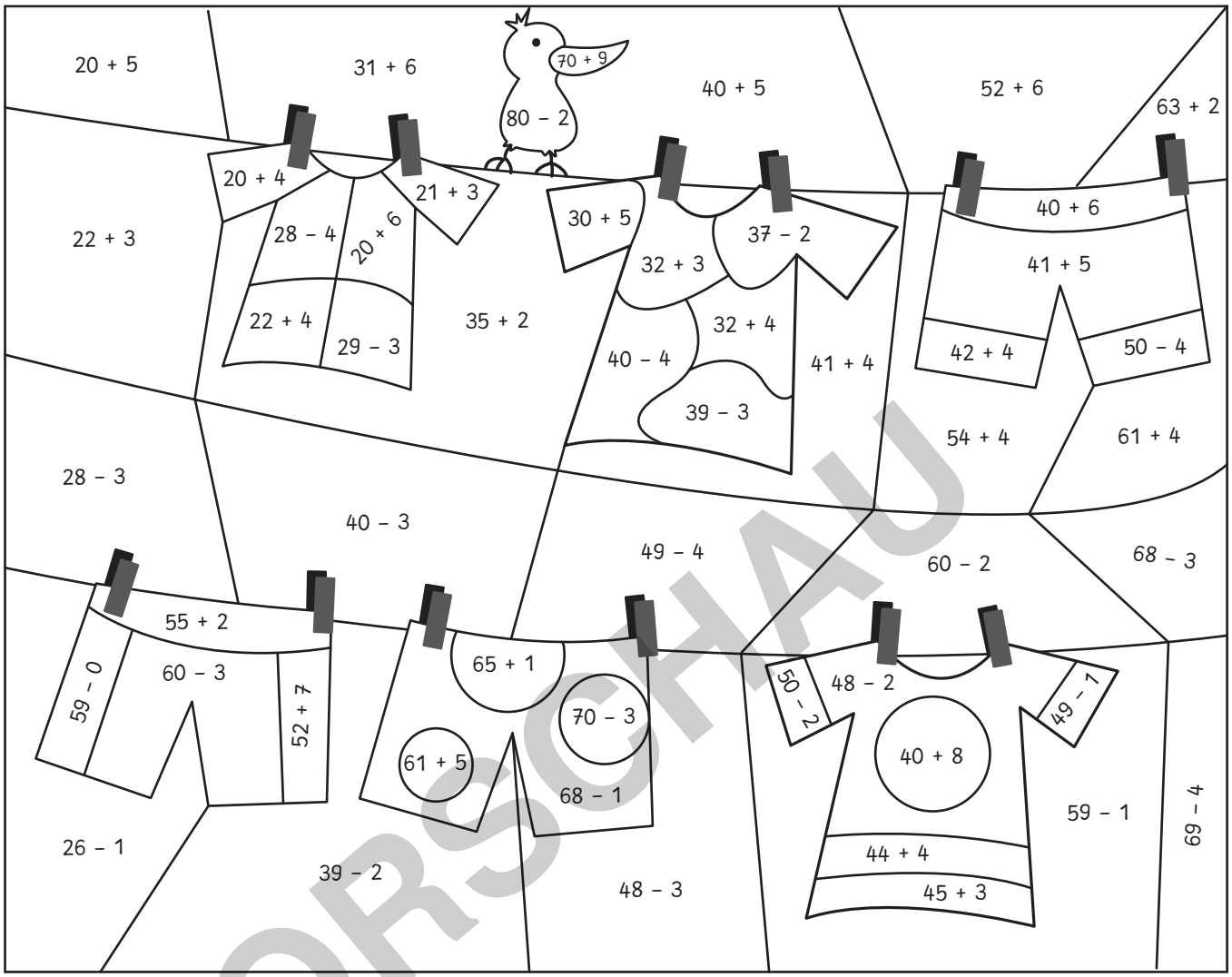


VORSCHAU

**Rechne die Aufgaben.**
**Male die Felder in den richtigen Farben an.**
lila = Ergebniszahlen 24 und 26
blau = Ergebniszahlen 35 und 36
dunkelgrün = Ergebniszahlen 46 und 48
gelb = Ergebniszahlen 57 und 59
orange = Ergebniszahlen 66 und 67
schwarz = Ergebniszahlen 78 und 79

**Male alle anderen Felder hellgrün an.**

**Wie viele Kleidungsstücke siehst du?**
☐ 8
☐ 6
☐ 5

netzwerk lernen
© Persen Verlag
zur Vollversion

# Auf Safari




VORSCHAU

**Rechne die Aufgaben.**
**Male die Felder in den richtigen Farben an.**
blau = Ergebniszahlen 34 und 37
gelb = Ergebniszahlen 56 und 60
braun = Ergebniszahlen 65 und 68

**Male alle anderen Felder grün an.**

**Welche beiden Tiere siehst du?**
**Schreibe auf.**

netzwerk lernen
zur Vollversion

# In einer Höhle




VORSCHAU

**Male die Felder aus.**
grau = gerade Zahlen
blau = ungerade Zahlen

**Lasse Felder ohne Zahlen weiß.**

**Wer fliegt durch die Höhle?**

- ☐ Vogel
- ☐ Fledermaus
- ☐ Storch

netzwerk lernen
© Persen Verlag
zur Vollversion