Aufgaben

1. Löse die Aufgaben der 2er-Reihe.

1 · 2 =


2 · 2 =


3 · 2 =


4 · 2 =


5 · 2 =


6 · 2 =


7 · 2 =


8 · 2 =


9 · 2 =


10 · 2 =

2. Lege selbst die Aufgaben der 2er-Reihe mit Muggelsteinen.
   Sprich dir die Aufgaben laut vor.

VORSCHAU

ecker/Hoffmann/Reinhardt: Mathe an Stationen SPEZIAL: 1 x 1 (Klasse 2)
Auer Verlag – AAP Lehrerfachverlage GmbH, Donauwörth

netzwerk lernen
zur Vollversion

Station 2	Versteckte Aufgaben	· 2

Aufgaben

1. Im Karton sind 3 Rechenaufgaben versteckt.
   Kannst du sie entdecken?
   Schreibe sie auf und rechne.



a) _____

b) _____

c) _____

2. Denke dir selbst vier Aufgaben zur 2er-Reihe aus und male sie auf.

a)

b)

c)

d)

3. Schreibe die passende Plusaufgabe und Malaufgabe auf und löse sie.





_____ _____ _____ _____



_____ _____ _____ _____

VORSCHAU

ecker/Hoffmann/Reinhardt: Mathe an Stationen SPEZIAL: 1 x 1 (Klasse 2)
Auer Verlag – AAP Lehrerfachverlage GmbH, Donauwörth

netzwerk lernen
zur Vollversion

Station 3	Bilderrechnen	· 2

Aufgaben

Schneide das Puzzlebild aus und klebe das richtige Ergebnis auf die dazu passende Malaufgabe.

2 · 2	6 · 2	10 · 2	3 · 2	7 · 2
8 · 2	9 · 2	1 · 2	4 · 2	5 · 2

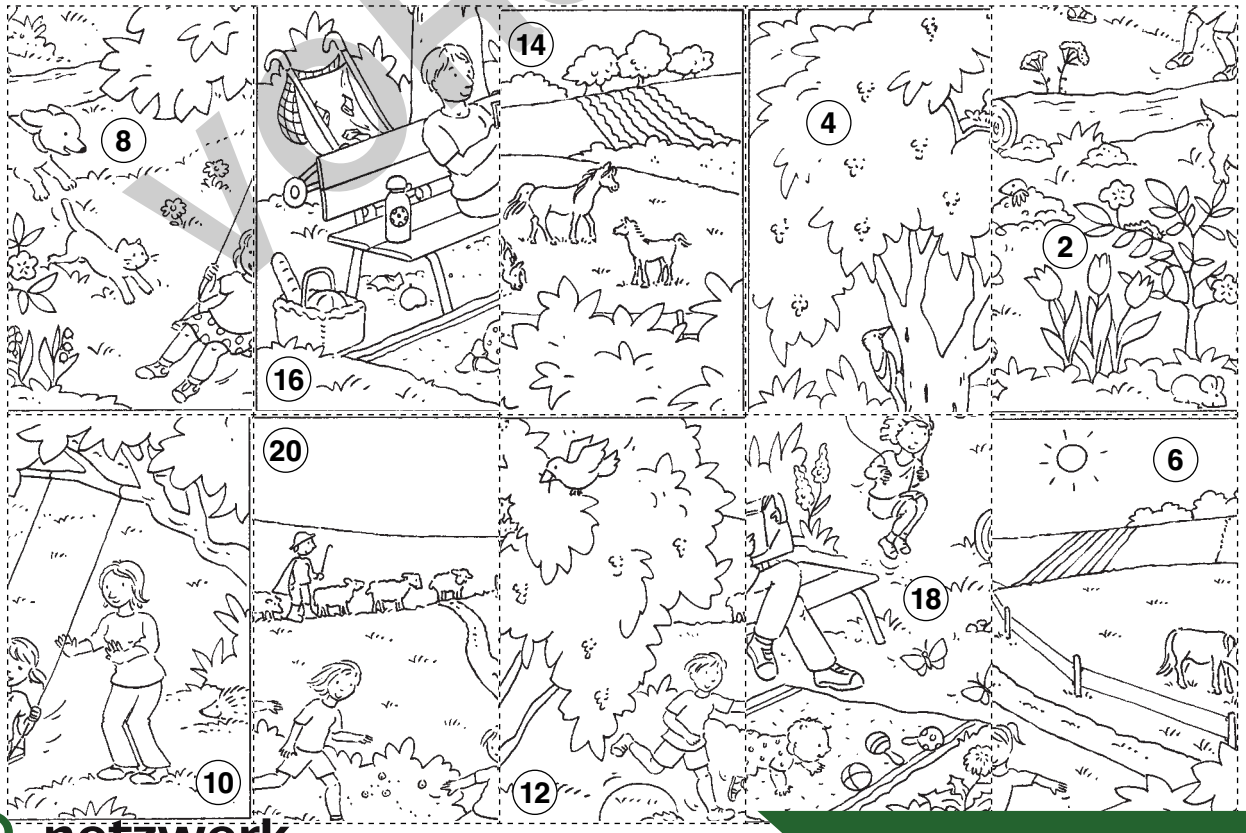

VORSCHAU

ecker/Hoffmann/Reinhardt: Mathe an Stationen SPEZIAL: 1 x 1 (Klasse 2)
Auer Verlag – AAP Lehrerfachverlage GmbH, Donauwörth

netzwerk lernen
zur Vollversion

Station 4	Waschtag	· 2

Aufgaben

In ein paar Tagen möchte Familie Schneider in den Winterurlaub fahren. Dafür benötigt sie warme Handschuhe. Nachdem Herr Schneider die Handschuhe gewaschen hat, hängt er sie zum Trocknen auf die Wäscheleine. Insgesamt sind es 8 Handschuhe.



1. Nachdem die Handschuhe getrocknet sind, legt Herr Schneider sie zu Paaren zusammen. Wie viele Handschuhpaare gibt es? Schreibe deine Überlegungen auf.

2. Kreise immer 2 Paar Handschuhe ein. Schreibe die Geteiltaufgabe auf und rechne sie aus.



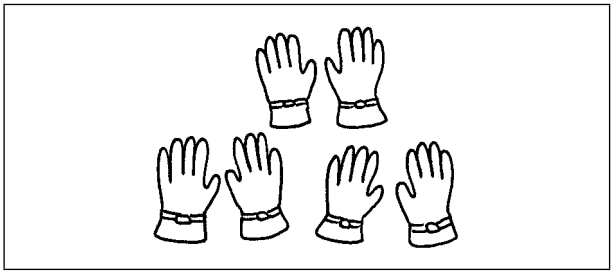

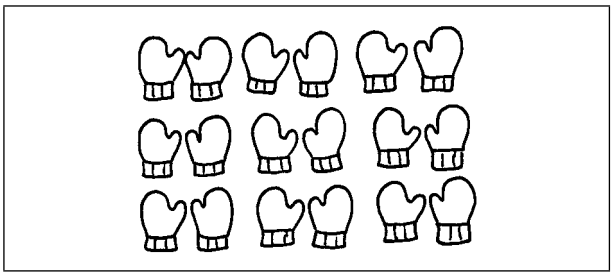



VORSCHAU

ecker/Hoffmann/Reinhardt: Mathe an Stationen SPEZIAL: 1 x 1 (Klasse 2)
Auer Verlag – AAP Lehrerfachverlage GmbH, Donauwörth

netzwerk lernen
zur Vollversion

Station 5	Aufgabe erfühlen	· 2

Aufgaben

1. Suche dir einen Partner. Schreibe deinem Partner eine Einmaleinsaufgabe aus der 2er-Reihe mit dem Finger auf den Rücken, zum Beispiel die Aufgabe 3 · 2.
   Lasse deinen Partner die Aufgabe lösen.
   Nach vier Aufgaben wechselt ihr.
   Notiere deine gelösten Aufgaben.

Aufgabe 1: _____

Aufgabe 2: _____

Aufgabe 3: _____

Aufgabe 4: _____

2. Schreibe deinem Partner nun eine Einsdurcheinsaufgabe mit dem Finger auf den Rücken.
   Es soll immer durch 2 geteilt werden. Lasse deinen Partner die Aufgabe lösen.
   Nach drei Aufgaben wechselt ihr.
   Notiere deine gelösten Aufgaben.

Aufgabe 1: _____

Aufgabe 2: _____

Aufgabe 3: _____

Aufgabe 4: _____

VORSCHAU

ecker/Hoffmann/Reinhardt: Mathe an Stationen SPEZIAL: 1 x 1 (Klasse 2)
Auer Verlag – AAP Lehrerfachverlage GmbH, Donauwörth

netzwerk lernen
zur Vollversion

Station 6	Hundertertafel	· 2

Aufgaben

1. Male alle Zahlen der 2er-Reihe bis 20 rot an.

1	2	3	4	5	6	7	8	9	10
11	12	13	14	15	16	17	18	19	20
21	22	23	24	25	26	27	28	29	30
31	32	33	34	35	36	37	38	39	40
41	42	43	44	45	46	47	48	49	50
51	52	53	54	55	56	57	58	59	60
61	62	63	64	65	66	67	68	69	70
71	72	73	74	75	76	77	78	79	80
81	82	83	84	85	86	87	88	89	90
91	92	93	94	95	96	97	98	99	100

2. Kannst du die 2er-Reihe bis 100 fortsetzen? Male auch diese Zahlen rot an.

3. Erkennst du ein Muster? Notiere deine Ideen.

VORSCHAU

ecker/Hoffmann/Reinhardt: Mathe an Stationen SPEZIAL: 1 x 1 (Klasse 2)
Auer Verlag – AAP Lehrerfachverlage GmbH, Donauwörth

netzwerk lernen
zur Vollversion