Station 1

Deutsche Flagge und deutsches Wappen

Name: _____

Aufgabe 1

Male die deutsche Nationalflagge und den Bundesadler in den entsprechenden Farben aus!



Aufgabe 2

Welche Eigenschaften hat ein Adler?
Befrage einen Mitschüler!

_____

VORSCHAU

Oliver Zyber: Erdkunde an Stationen 5/6 Inklusion
© Auer Verlag – AAP Lehrerfachverlage GmbH, Donauwörth

netzwerk lernen
zur Vollversion

Station 3

Hafenstädte an Nord- und Ostsee

Name: _____

Aufgabe 1

In die folgende Liste deutscher Hafenstädte sind sieben Buchstaben zuviel hineingeraten.
Streiche sie durch!
Richtig angeordnet ergeben diese Buchstaben den Namen einer Hafenstadt an der Nordsee.

L U E B B E C K	R O S T O G C K
W I L H E L M M S H A V E N	P U T T G A R R D E N
C U U X H A V E N	E M D E A N
B R E M E R H H A V E N	K I E L



Die überflüssigen Buchstaben sind:

Die gesuchte Hafenstadt heißt:

Aufgabe 2

Kennzeichne die Hafenstädte auf der Karte mit einem Punkt!
Verbinde den Stadtnamen mit dem Punkt!
Schlage zur Unterstützung im Atlas nach!

Cuxhaven
Kiel
Lübeck
Rostock
Bremerhaven
Emden
Wilhelmshaven

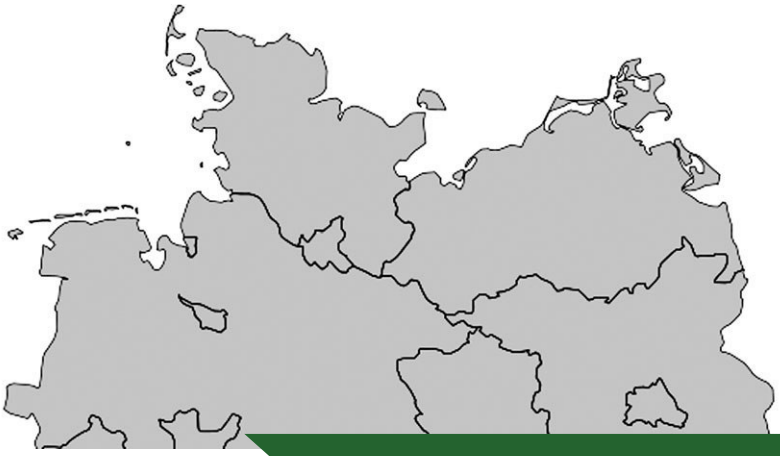

VORSCHAU

Oliver Zyber: Erdkunde an Stationen 5/6 Inklusion
© Auer Verlag – AAP Lehrerfachverlage GmbH, Donauwörth

netzwerk lernen
zur Vollversion

Station 7

Name: _____

Wander- und Winterspaß – Mittel- und Hochgebirge

Aufgabe 1

Ergänze die fehlenden Angaben in der Tabelle!

Mittelgebirge	Höchste Erhebung	Höhe	Bundesland
Bayerischer Wald		1456 m	
	Brocken		Niedersachsen, Sachsen-Anhalt, Thüringen
Rhön			Bayern, Hessen, Thüringen
	Feldberg	1493 m	
		879 m	Hessen

Aufgabe 2

Beantworte die folgenden Fragen!

a) Welches Mittelgebirge liegt nordwestlich von Frankfurt?

_____



b) In welchem Gebirge entspringt die Donau?

_____

c) Welches Land hat den größten Anteil an den Alpen?

_____

d) Welches ist das nördlichste Mittelgebirge Deutschlands?

_____

Aufgabe 3

Nenne die drei nächsten Mittelgebirge in der Nähe deines Wohnortes!

a) _____

b) _____

c) _____

VORSCHAU

Oliver Zyber: Erdkunde an Stationen 5/6 Inklusion
© Auer Verlag – AAP Lehrerfachverlage GmbH, Donauwörth

netzwerk lernen
zur Vollversion

Station 1: Deutsche Flagge und deutsches Wappen

Seite 2

Aufgabe 1:
„Die Bundesflagge ist schwarz-rot-gold.“ (siehe Art. 22 GG)
Das Bundeswappen zeigt die Farben der Bundesflagge (schwarz-rot-gold).
Es zeigt auf goldgelbem Grund einen einköpfigen, schwarzen Adler.
Der Kopf ist nach rechts gewendet.
Die Fänge, der Schnabel und die Zunge sind rot gefärbt.

Aufgabe 2:
Der Adler symbolisiert Unsterblichkeit, Mut, Weitblick und Kraft.

Station 2: Die Landschaft

Seite 3

Aufgabe 1:
Alpenvorland, Mittelgebirge, Hochgebirge, Norddeutsche Tiefebene

Aufgabe 2:
(von oben nach unten) Norddeutsche Tiefebene, Mittelgebirge, Alpenvorland, Hochgebirge

Station 3: Hafenstädte an Nord- und Ostsee

Seite 4

Aufgabe 1:
Die überflüssigen Buchstaben sind: B G M R U A H. Das Lösungswort ist: H A M B U R G

Aufgabe 2:

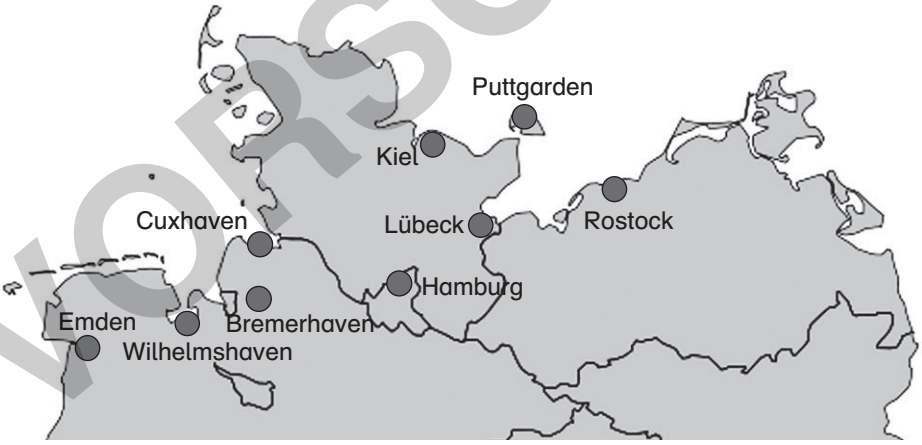

Station 4: Beliebte Ausflugsziele

Seite 5

Reichstag – Berlin, Semperoper – Dresden, Dom – Köln, Schloss Belvedere – Weimar, Schloss Neuschwanstein – Füssen, Brandenburger Tor – Berlin

VORSCHAU

Oliver Zyber: Erdkunde an Stationen 5/6 Inklusion
© Auer Verlag – AAP Lehrerfachverlage GmbH, Donauwörth

netzwerk lernen
zur Vollversion