DOWNLOAD

Jens Eggert

Die 16 Bundesländer

VORSCHAU

Downloadauszug
aus dem Originaltitel:

netzwerk
lernen

zur Vollversion

Name:	Datum:	1
Die 16 Bundesländer		

Seit dem Tag der Wiedervereinigung gibt es insgesamt 16 Bundesländer.

1. Nimm einen Atlas und suche die Namen der einzelnen Bundesländer heraus. Schreibe sie zu den Pfeilen.

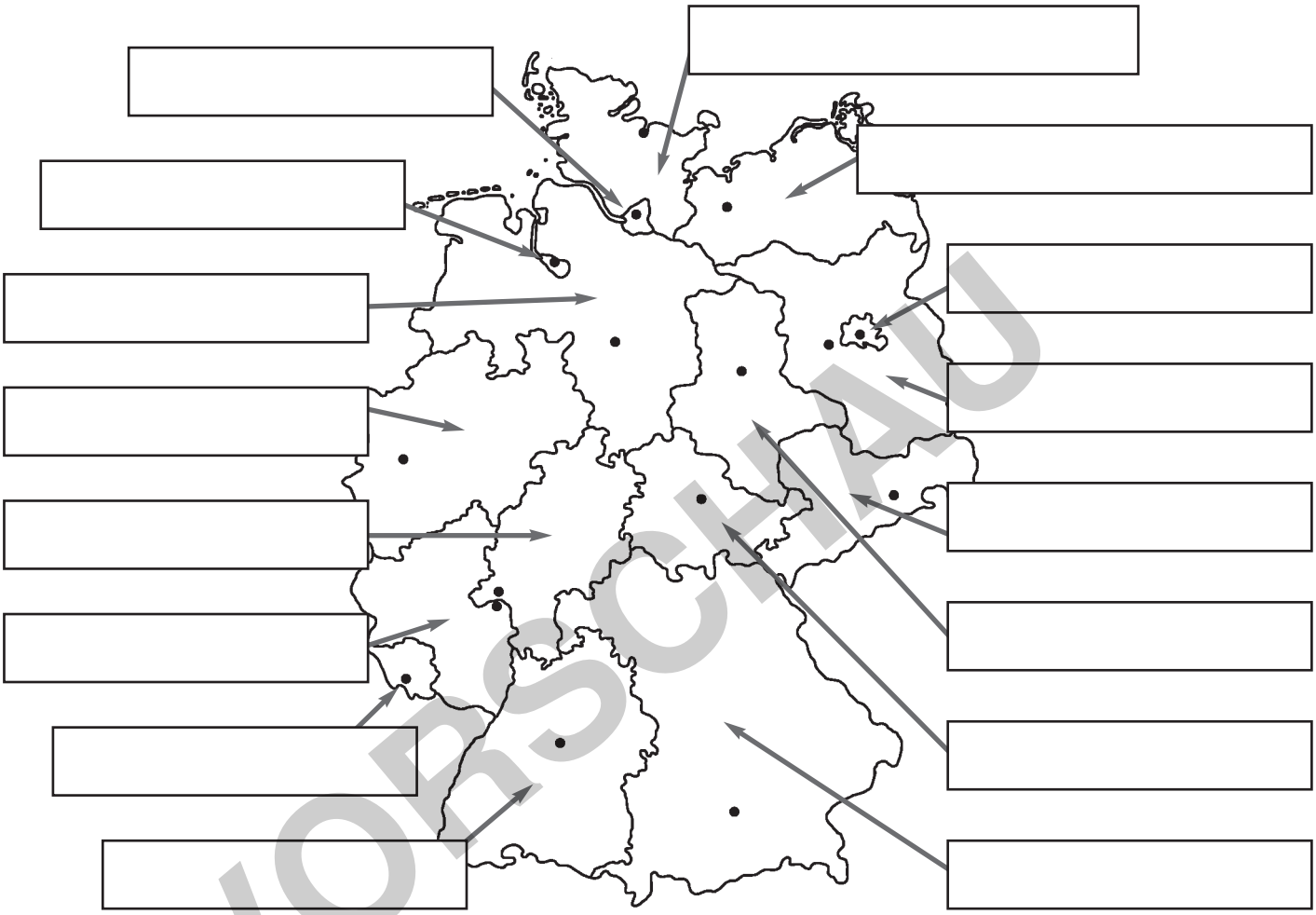

VORSCHAU

2. Notiere die Landeshauptstädte der Bundesländer. Nimm einen Atlas zur Hilfe.

Baden-Württemberg: _____ Bayern: _____

Bremen: _____ Berlin: _____

Brandenburg: _____ Hamburg: _____

Hessen: _____ Mecklenburg-Vorpommern: _____

Nordrhein-Westfalen: _____ Niedersachsen: _____

Rheinland-Pfalz: _____ Sachsen: _____

Saarland: _____ Schleswig-Holstein: _____

Sachsen-Anhalt: _____ Thüringen: _____

netzwerk lernen
zur Vollversion

© Persen Verlag, Buxtehude

Name:	Datum:	2a
Das geteilte Deutschland von 1949 bis 1990		

Unser Land, wie es heute besteht, gibt es erst seit dem 03. Oktober 1990 Von 1949 bis 1990 gab es zwei deutsche Staaten: die Bundesrepublik Deutschland (BRD) und die Deutsche Demokratische Republik (DDR).

Wie war es dazu gekommen? Das Deutsche Reich, das in den Jahren 1933 bis 1945 von dem Diktator (Alleinherrscher) Adolf Hitler regiert wurde, begann am 01. September 1939 den Zweiten Weltkrieg. Dieser schreckliche Krieg dauerte bis zum 08. Mai 1945. Deutschland verlor den Krieg und wurde von den Siegern (USA, Sowjetunion, Großbritannien und Frankreich) besetzt und verwaltet. Die Siegermächte zerstritten sich. Auf der einen Seite standen die drei westlichen Siegermächte USA, Großbritannien und Frankreich, auf der anderen Seite die östliche Siegermacht Sowjetunion. Die Folge dieses Streits war, dass aus den drei Besatzungszonen im Westen am 23. Mai 1949 die Bundesrepublik Deutschland mit der damaligen provisorischen (vorläufigen) Hauptstadt Bonn gegründet wurde. Im Gegenzug wurde am 07. Oktober 1949 auf dem Gebiet der sowjetischen Besatzungszone die Deutsche Demokratische Republik gegründet mit dem östlichen Teil von Berlin als Hauptstadt. Der westliche Teil von Berlin gehörte zur Bundesrepublik Deutschland. Die Bundesrepublik Deutschland bestand aus elf Bundesländern.

VORSCHAU



Bis zum Fall der Mauer am 11. November 1989 waren die Grenzen zwischen den beiden deutschen Staaten sehr streng bewacht. Die Bürger der DDR durften – im Gegensatz zu den Bundesbürgern im Westen – nicht frei in jedes Land der Welt reisen. Berlin war durch eine unüberwindbare Mauer in zwei Teile getrennt. Doch durch die zahlreichen Demonstrationen im Jahr 1989 in der DDR und der Flucht vieler unzufriedener Bürger aus der DDR sah sich die DDR-Regierung gezwungen, die Grenzen zu öffnen.

Die Politiker in den beiden deutschen Staaten nutzten die Möglichkeit, die beiden Länder wieder zu einem Deutschland zu vereinigen. Am 03. Oktober 1990 war es dann so weit. Die DDR trat dem Gebiet der Bundesrepublik bei. Aus den ehemaligen DDR-Bezirken waren 5 „neue Bundesländer“ entstanden.

netzwerk lernen
zur Vollversion

© Persen Verlag, Buxtehude

Name:	Datum:	2b
Das geteilte Deutschland von 1949 bis 1990		

1. **Lies den Infotext über das geteilte Deutschland aufmerksam durch.**

2. **Trage alle Datumsangaben in diese Tabelle chronologisch (in zeitlich richtiger Abfolge) ein. Schreibe dahinter, was an diesem Datum passierte. Beginne mit dem ältesten Datum.**

Datum	Was passierte an diesem Tag?

3. **Schreibe auf, welche Bundesländer vor 1990 zur „alten“ Bundesrepublik Deutschland gehörten.**

4. **Welche fünf „neuen“ Bundesländer kamen mit der Wiedervereinigung hinzu. Schreibe auf.**

„Alte“ Bundesländer

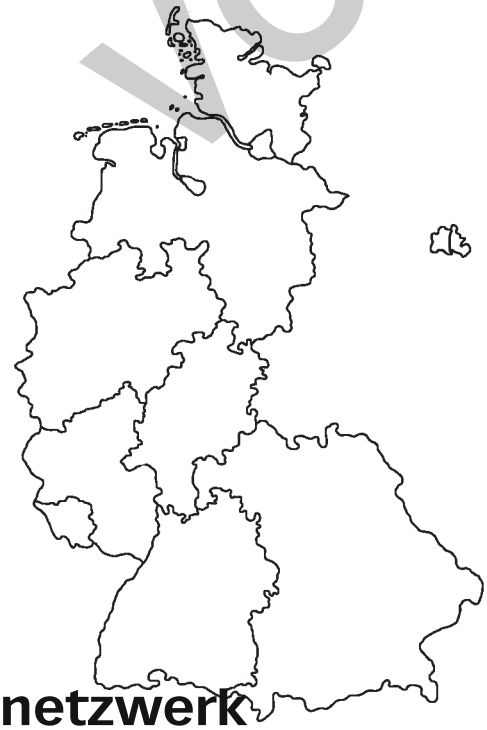

„Neue“ Bundesländer

VORSCHAU

netzwerk lernen
zur Vollversion

© Persen Verlag, Buxtehude

Name:	Datum:	3a

Die 16 Bundesländer und ihre Landeswappen

Jedes Bundesland hat sein eigenes Wappen und seine eigene Landesfahne.

1. **Versuche mithilfe der folgenden Beschreibungen die Wappen der Bundesländer richtig auszumalen. Wenn du nicht mehr weiterweißt, schaue in einem Atlas nach.**

Baden-Württemberg:
Auf gelbem Hintergrund sind drei kleine schwarze Löwen mit roter Zunge zu sehen.



Beim dreigeteilten Wappen von Nordrhein-Westfalen ist die linke Wappenhälfte grün, durch die sich ein silberfarbener Fluss (Rhein) schlängelt. Auf der rechten Seite ist ein silbernes Pferd auf rotem Hintergrund zu sehen. Unten ist noch eine fünfblättrige rote Rose zu erkennen.



Im bayerischen Wappen ist im oberen linken Viertel ein goldener Löwe auf schwarzem Hintergrund zu sehen. Rechts daneben ist die obere Hälfte rot, der Unterteil silberfarben.
Im unteren linken Viertel ist ein blauer Löwe mit roter Zunge auf silbernem Hintergrund zu sehen. Rechts unten sind drei schwarze Löwen auf goldenem Hintergrund zu sehen.

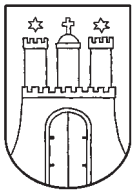

Beim Hamburger Wappen ist eine weiße Burg auf rotem Hintergrund zu sehen.

Hessen: Auf einem blauen Wappen mit goldener Krone ist ein weiß-rot gestreifter Löwe zu erkennen. Beginne beim obersten Farbstreifen mit der Farbe weiß.

Der Berliner Bär ist schwarz und hat eine rote Zunge. Der Hintergrund ist silberfarben, darüber steht eine goldene Krone.

Auf einem silbernen Hintergrund sieht man den roten brandenburgischen Adler. Seine Beine, Krallen und sein Schnabel sind goldfarben.



Beim Landeswappen von Mecklenburg-Vorpommern sind zwei schwarze Stiere mit weißen Hörnern auf goldenem Hintergrund zu erkennen. Die Ochsen haben eine rote Zunge und jeweils eine goldene Krone auf. Links unten ist ein roter Adler auf silbernem Hintergrund zu sehen. Oben rechts ein roter Greif auf silbernen Hintergrund.

Beim Landeswappen von Niedersachsen sieht man ein weißes Pferd auf rotem Hintergrund.

Auf dem Stadtwappen von Bremen ist ein silberner Schlüssel auf rotem Hintergrund zu sehen, dar-

VORSCHAU

netzwerk lernen

zur Vollversion

© Persen Verlag, Buxtehude

Name:	Datum:	3b

Die 16 Bundesländer und ihre Landeswappen

Rheinland-Pfalz hat ein dreigeteiltes Wappen. In der linken oberen Wappenhälfte sieht man ein rotes Kreuz auf silbernem Grund. Rechts daneben befindet sich ein silbernes Wagenrad auf rotem Hintergrund. Das untere Drittel des Wappens ist schwarz, auf ihm ist ein goldener Löwe mit roter Krone, Zunge und Krallen zu sehen.



Das saarländische Landeswappen ist ein viergeteilter Schild. Oben links ist ein silberner Löwe mit roter Zunge und goldener Krone auf blauem Hintergrund zu sehen. Rechts daneben befindet sich ein rotes Balkenkreuz auf silbernem Hintergrund. Unten links sieht man auf einem roten Schrägbalken drei silberne Adler. Der restliche Hintergrund ist goldfarben. Im rechten unteren Feld sieht man einen rot gekrönten, silbernen Löwen auf schwarzem Hintergrund.



Das Wappen des Landes Sachsen ist abwechselnd schwarz-gold gestreift, wobei der oberste Streifen mit der Farbe schwarz beginnt. Von oben links nach rechts unten zieht sich ein grüner Rautenkranz durch das Wappen.



Beim Wappen aus Sachsen-Anhalt sieht man im oberen Bereich eine fast gleiche Darstellung des sächsischen Landeswappens. Allerdings ist hier der oberste Streifen goldfarben und nicht schwarz. Oben rechts sieht man einen schwarzen Adler auf silbernem Grund. In der unteren Wappenhälfte sieht man einen schwarzen Bären auf einer roten Mauer. Der Hintergrund ist silberfarben.

Das Wappen von Schleswig-Holstein ist zweigeteilt. In der linken Hälfte sieht man zwei blaue Löwen mit roten Krallen und Zungen auf goldenem Hintergrund.
Auf der rechten Seite befindet sich ein silberfarbenes Nesselblatt auf rotem Grund.



Das Wappen Thüringens sieht dem aus Hessen zum Verwechseln ähnlich. Zu sehen ist ein achtfach quer gestreifter Löwe. Die Farben der Steifen wechseln sich in Rot und Silber ab. Der oberste Streifen ist rot. Der Löwe ist von acht silberfarbenen Sternen umgeben, der Wappenhintergrund ist blau.

Zu guter Letzt kommt noch das Wappen unseres Landes, der Bundesrepublik Deutschland.

Beim Bundeswappen sieht man einen schwarzen Adler mit roten Krallen, rotem Schnabel und roter Zunge auf goldenem Hintergrund.

VORSCHAU

netzwerk lernen

zur Vollversion

© Persen Verlag, Buxtehude

Name:	Datum:	4
Die Landeswappen		

Jedes Bundesland hat sein eigenes Wappen.

1. Ordne jedem Bundesland das richtige Wappen zu.

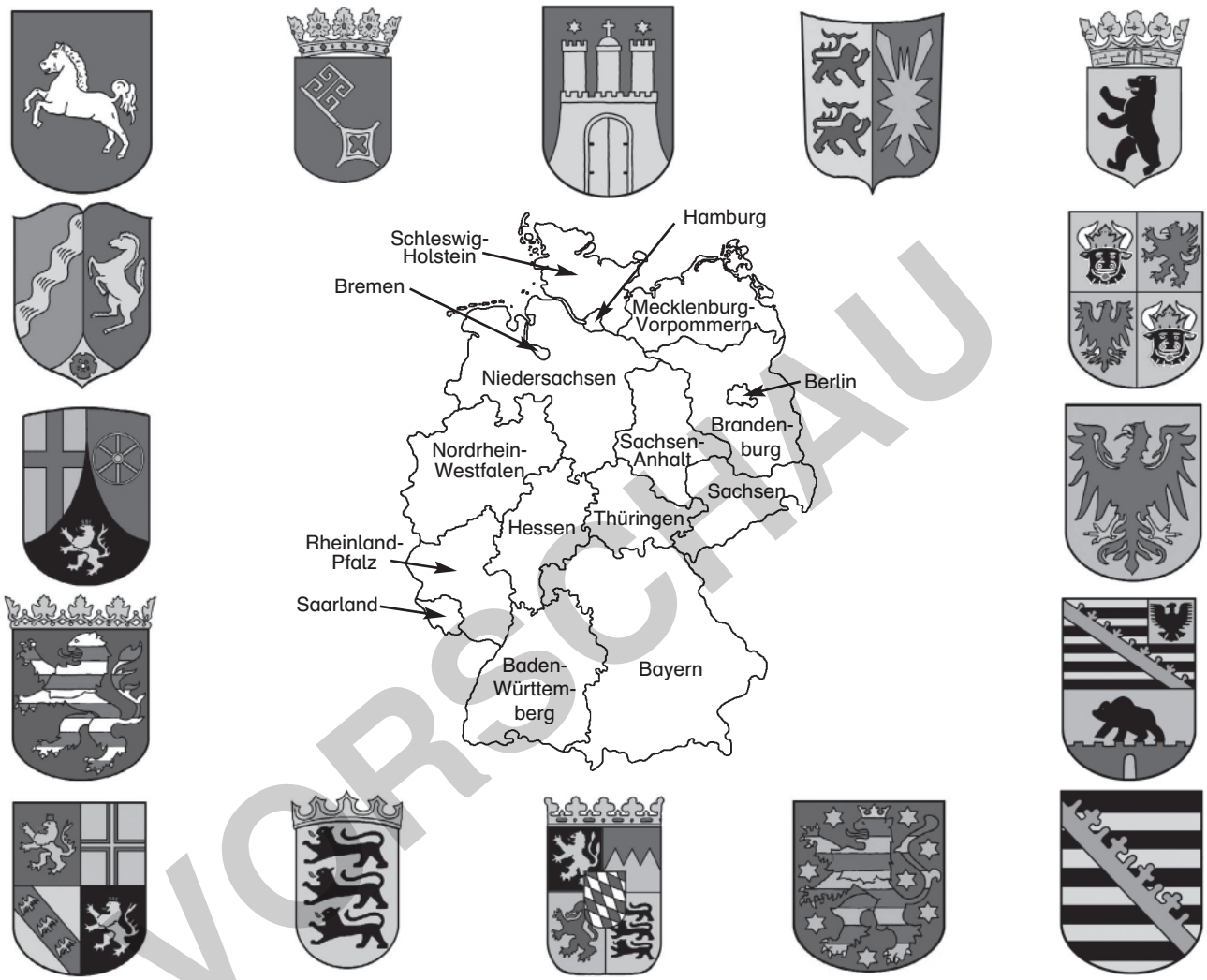

VORSCHAU

2. Schreibe auf, welche Tiere sehr häufig in den verschiedenen Wappen verwendet werden.

_____

3. Was vermutest du, warum man gerade diese Tiere in die Wappen aufgenommen hat?

_____

_____

4. Recherchiere: Was bedeuten die Wappen?

netzwerk lernen
zur Vollversion

© Persen Verlag, Buxtehude

Name:	Datum:	5a
Landeswappen-Puzzle		

1. Schneide alle Kärtchen aus. Klebe sie auf das nächste Arbeitsblatt.

2. Schreibe jeweils die dazugehörige Landeshauptstadt dazu.

Achtung! Die Umrisse der kleineren Bundesländer sind hier vergrößert dargestellt!



VORSCHAU

netzwerk lernen

zur Vollversion

© Persen Verlag, Buxtehude

Name:	Datum:	5b
Landeswappen-Puzzle		

Baden-Württemberg	**Stuttgart**	**Bayern**	

Bremen		**Brandenburg**	

Berlin		**Hamburg**	

Hessen		**Mecklenburg-Vorpommern**	

VORSCHAU

netzwerk lernen

zur Vollversion

© Persen Verlag, Buxtehude

Name:	Datum:	5c
Landeswappen-Puzzle		

Nordrhein-Westfalen	_____	**Niedersachsen**	_____

Rheinland-Pfalz	_____	**Sachsen**	_____

Sachsen-Anhalt	_____	**Saarland**	_____

Schleswig-Holstein	_____	**Thüringen**	_____

VORSCHAU

netzwerk lernen

zur Vollversion

© Persen Verlag, Buxtehude

Name:	Datum:	6
Die Bundesländer im Vergleich		

Die Bundesländer sind unterschiedlich groß. Auch die Einwohnerzahlen sind verschieden.

Bundesland	Fläche in km²	Bevölkerung	Einwohner je km² Anzahl
Baden-Württemberg	35.751,65	10.749.755	301
Bayern	70.551,56	12.520.332	177
Berlin	891,02	3.416.255	3.834
Brandenburg	29.480,33	2.535.737	86
Bremen	404,28	663.082	1.640
Hamburg	755,25	1.770.629	2.344
Hessen	21.114,77	6.072.555	288
Mecklenburg-Vorpom.	23.185,40	1.679.682	72
Niedersachsen	47.625,43	7.971.684	167
Nordrhein-Westfalen	34.086,48	17.996.621	528
Rheinland-Pfalz	19.853,24	4.045.643	204
Saarland	2.568,64	1.036.598	404
Sachsen	18.418,04	4.220.200	229
Sachsen-Anhalt	20.447,05	2.412.472	118
Schleswig-Holstein	15.799,08	2.837.373	180
Thüringen	16.172,10	2.289.219	142
Deutschland	**357.030,32**	**82.217.837**	**230**

Quelle: Statistisches Bundesamt (www.destatis.de)

VORSCHAU

1. Schreibe die drei kleinsten Bundesländer (Fläche) auf.

_____

2. Schreibe die drei größten Bundesländer (Fläche) auf.

_____

3. Schreibe die drei kleinsten Bundesländer (Einwohner) auf.

_____

4. Schreibe die drei größten Bundesländer (Einwohner) auf.

_____

5. Schreibe die drei Bundesländer auf, die am dünnsten besiedelt sind (Einwohner je km²).

_____

6. Schreibe die drei Bundesländer auf, die am dichtesten besiedelt sind (Einwohner je km²).

netzwerk lernen
zur Vollversion

© Persen Verlag, Buxtehude