Matheübungsheft – Fit durchs erste Schuljahr

Übung macht den Meister! Ob zu Hause oder in der Schule: Um den Unterrichtsstoff zu festigen, sind vielfältige Übungen notwendig.
Zur Übung für Lehrer oder Eltern habe ich dieses Arbeitsheft für Kinder der 1. Klasse für Mathematik erstellt.
Die Aufgaben sind klar gegliedert und auf jeder Seite wird eine Übungsform behandelt. Zwei Figuren erklären die Aufgabenstellung und machen jeweils eine Aufgabe einer Seite vor. So können die Kinder das Heft selbstständig bearbeiten: In Freiarbeit, als Übung zu Hause oder als zusätzliche Förderung für leistungsstarke Kinder als Zusatzmaterial zum Übungsstoff der Schule bereits zu Beginn des Schuljahres oder für leistungsschwache Schüler als zusätzliches Übungsmaterial zu einzelnen Themen oder am Ende des Schuljahres.
Im Inhaltsverzeichnis können bereits erledigte Seiten abgehakt werden. Zum Ausdruck steht das Material wahlweise in Farbe oder schwarz-weiß zur Verfügung.

Das Heft deckt alle Bereiche der Mathematik des 1. Schuljahres auf 64 Übungsseiten ab. Ein Lösungsheft zur Selbstkontrolle steht ebenfalls zur Verfügung.
Die Seiten haben folgende Themen:

1 Ziffern nachspuren

2 Ziffern schreiben bis 10

3 Bild-Punkte

VORSCHAU

netzwerk lernen

zur Vollversion

4 Bild-Zahl

5 Größer-Kleiner-Fisch

6 Größer-Kleiner-Turm

7 Größer-Kleiner

8 Nachbarzahlen bis 10

9 Plusrechnen bis 10

10 Plus bis 10

11 Tauschaufgaben bis 10

12 Nachbaraufgaben plus bis 10

13 Ergänzen bis 10

14 Ergänzungsaufgaben bis 10

15 Zahlenhäuser

16 Zehnerpaare

17 Minusrechnen bis 10

18 Minus bis 10

19 Umkehraufgaben bis 10

20 Nachbaraufgaben minus bis 10

21 Abziehen bis 10

22 Minusaufgaben bis 10

23 Rechnen mit Null

24 Ziffernschreiben bis 20

25 Bild-Zahl bis 20

VORSCHAU

netzwerk lernen

zur Vollversion

26 Zahlenstrahl 1

27 Zahlenstrahl 2

28 Größer-Kleiner bis 20

29 Nachbarzahlen bis 20

30 Plusrechnen klein und groß

31 Plus- kleine und große Aufgaben

32 Plusaufgaben von 10 bis 20

33 Tauschaufgaben plus bis 20

33* Hier wurde auch getauscht bis 20

34 Nachbaraufgaben von 10 bis 20

35 Ergänzen von 10 bis 20

36 Ergänzungsaufgaben von 10 bis 20

37 Zahlenhäuser bis 20

38 Minusrechnen klein und groß

39 Minus – kleine und große Aufgaben

40 Minusaufgaben von 10 bis 20

41 Umkehraufgaben bis 20

42 Nachbaraufgaben von 10 bis 20

43 Abziehen von 10 bis 20

44 Minusaufgaben von 10 bis 20

45 Zehnerübergang plus

46 Zehnerübergang plus

VORSCHAU

netzwerk lernen

zur Vollversion

47 Plusaufgaben über 10

48 Nachbaraufgaben bis 20

49 Tauschaufgaben bis 20

50 Ergänzungsaufgaben über 10

51 Rechnen zur 10

52 Zehnerunterschreiten

53 Zehnerunterschreiten

54 Minusaufgaben bis 20

55 Umkehraufgaben über 10

56 Nachbaraufgaben über 10

57 Minusaufgaben von 10 bis 20

58 Sachaufgaben

59 Geometrische Formen

60 Symmetrie erkennen

61 Symmetrie ergänzen

62 Uhrzeit – volle Stunden

63 Zwei Uhrzeiten

Auch für Ihre Kinder hoffentlich ein motivierendes Heft zum Üben des Mathematikstoffes des 1. Schuljahres.

Viel Vergnügen mit dem Material wünschen Ihnen,
Marion Keil und die Niekao Lernwelten

VORSCHAU

netzwerk lernen

zur Vollversion

Größer-Kleiner-Fisch

Male den Fisch, der die meisten Kästchen isst, schreibe die Zahlen und das Zeichen.

5

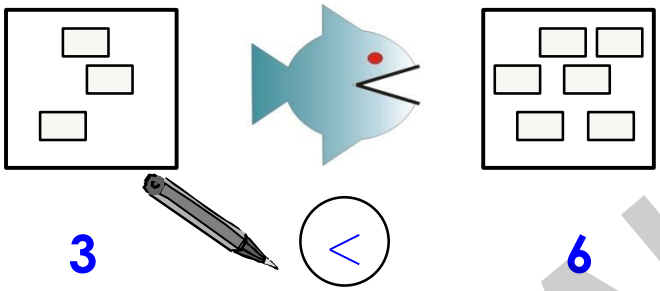

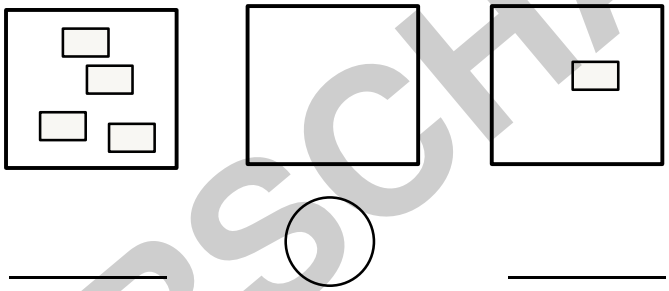

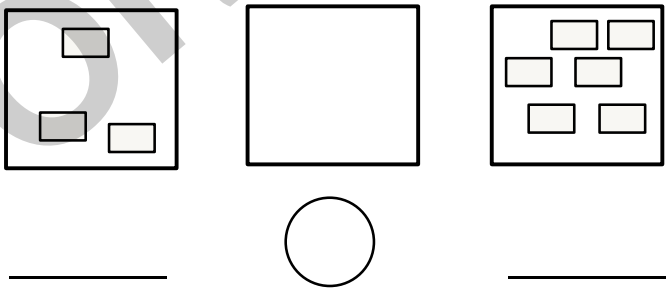

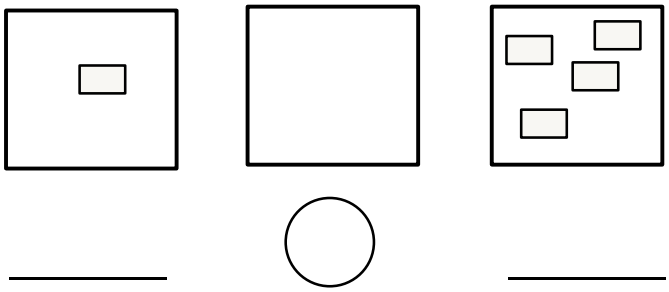

VORSCHAU

netzwerk lernen

zur Vollversion

Größer-Kleiner -Turm

Male das Zeichen in den Kreis und schreibe die Zahlen unter die Türme.

6

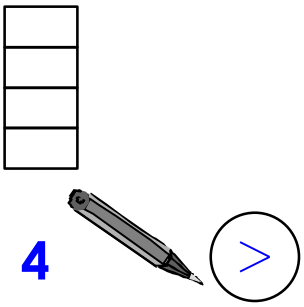



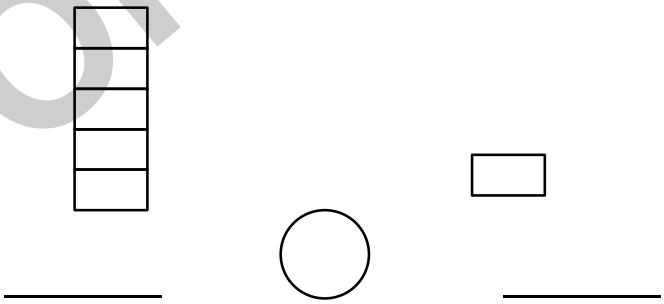

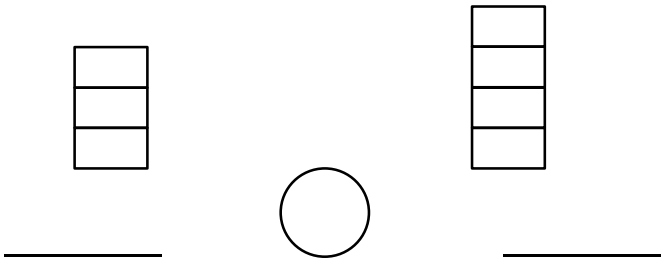

VORSCHAU

NIE!KAO

netzwerk lernen

zur Vollversion

Plusaufgaben über 10

Rechne erst bis 10, dann weiter.

47

5 + 9 = **14**	**5 + 5 + 4 = 14**
7 + 8 = ____	7 + ___ + ___ = ____
6 + 6 = ____	6 + ___ + ___ = ____
9 + 8 = ____	9 + ___ + ___ = ____
6 + 7 = ____	6 + ___ + ___ = ____
3 + 9 = ____	3 + ___ + ___ = ____
5 + 8 = ____	5 + ___ + ___ = ____
7 + 7 = ____	7 + ___ + ___ = ____
8 + 5 = ____	8 + ___ + ___ = ____

VORSCHAU

NIE!KAO

netzwerk lernen

zur Vollversion

Nachbaraufgaben bis 20



Schreibe die Lösung. Was fällt dir auf?

48

6 + 4 = **10**

6 + 5 = ____

6 + 6 = ____

6 + 7 = ____

6 + 8 = ____

9 + 1 = ____

9 + 2 = ____

9 + 3 = ____

9 + 4 = ____

9 + 5 = ____

3 + 7 = ____

4 + 7 = ____

5 + 7 = ____

6 + 7 = ____

7 + 7 = ____

4 + 6 = ____

5 + 6 = ____

6 + 6 = ____

7 + 6 = ____

8 + 6 = ____

VORSCHAU

NIE!KAO

netzwerk lernen

zur Vollversion

Nachbarzahlen bis 20

Schreibe die Nachbarn der vorgegebenen Zahl (Vorgänger und Nachfolger).

29

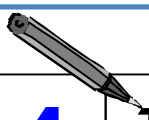

14	15	**16**

11	12	**13**
17	18	**19**
9	10	**11**
13	14	**15**
15	16	**17**

16	17	**18**
12	13	**14**
18	19	**20**
10	11	**12**
8	9	**10**

VORSCHAU

NIE!KAO

netzwerk lernen

zur Vollversion