DOWNLOAD

Jens Eggert

Amerika entdecken

Länder, Gebirge, Flüsse und mehr

VORSCHAU

Downloadauszug
aus dem Originaltitel:

netzwerk lernen

zur Vollversion

Name:	Datum:	

Der Kontinent Amerika

Den großen, lang gestreckten Kontinent Amerika kann man in drei Regionen unterteilt:

Nordamerika: Hierzu gehören die Staaten USA und Kanada.

Mittelamerika: Hierzu gehören die Länder von Mexiko bis Panama sowie die **Karibik**, eine Inselwelt, die zwischen den beiden großen Kontinentteilen liegt.

Südamerika: Hierzu gehören alle Staaten, die südlich von Panama liegen.

Im Westen grenzt der **Pazifische Ozean** an Amerika. Er ist der größte Ozean der Welt.

Im Osten grenzt der **Atlantische Ozean** an den lang gestreckten Kontinent. Im Norden grenzt das **Nordpolarmeer** an den Kontinent. Es ist zum größten Teil des Jahres mit Eismassen bedeckt.

Entlang der Westküste von Nord- und Südamerika erstrecken sich zwei hohe Gebirgszüge. Im Norden sind es die **Rocky Mountains** mit den **Mount McKinley** als höchstem Berg (6193 m). Im Süden sind es die **Anden**. Auch in den Anden sind zahlreiche Gipfel über 6000 m hoch. Der höchste Berg Amerikas liegt hier, der **Aconcagua**. Er ist 6958 m hoch.

Aufgabe: Setze die unterstrichenen Wörter richtig in die Karte ein.

Download zur Ansicht VORSCHAU

netzwerk lernen

zur Vollversion

© Persen Verlag – AAP Lehrerfachverlage GmbH, Buxtehude

Name:	Datum:	
Die Länder Nord- und Mittelamerikas		

Nimm einen Atlas zu Hilfe.

Aufgabe: Ordne den Nummern die richtigen Ländernamen zu.
Trage die Ländernamen in die Tabelle unten ein.

Nr.	Ländername	Nr.	Ländername
1		8	
2		9	
3		10	
4		11	
5		12	
6		13	
7		14	

Wusstest du schon?

...en beiden einwohnerreichsten Regionen befinden sich weite... ...den kleinsten Ländern der Welt.

Download zur Ansicht
netzwerk lernen
zur Vollversion

Name:	Datum:	

Die Länder Südamerikas

Nimm einen Atlas zu Hilfe.

1. **Finde die richtigen Ländernamen zu den Nummern heraus.**
2. **Finde zu jedem Ländernamen auch die entsprechende Hauptstadt heraus.**

Trage deine Ergebnisse richtig in die Tabelle ein.

Nr.	Land – Hauptstadt	Nr.	Land – Hauptstadt
1		8	
2		9	
3		10	
4		11	
5		12	
6		13	
7		14	

Achtung: Die Inseln Nr. 14 gehören zu einem europäischen Land!

Wusstest du schon?
Das kleine Land Französisch-Guyana gehört offiziell zu Frankreich. Hier ist Französisch die Amtssprache und die amtliche Währung ist der Euro!

Download zur Ansicht VORSCHAU
netzwerk lernen
zur Vollversion

© Persen Verlag – AAP Lehrerfachverlage GmbH, Buxtehude

Name:	Datum:	4

Die Entdeckung Amerikas

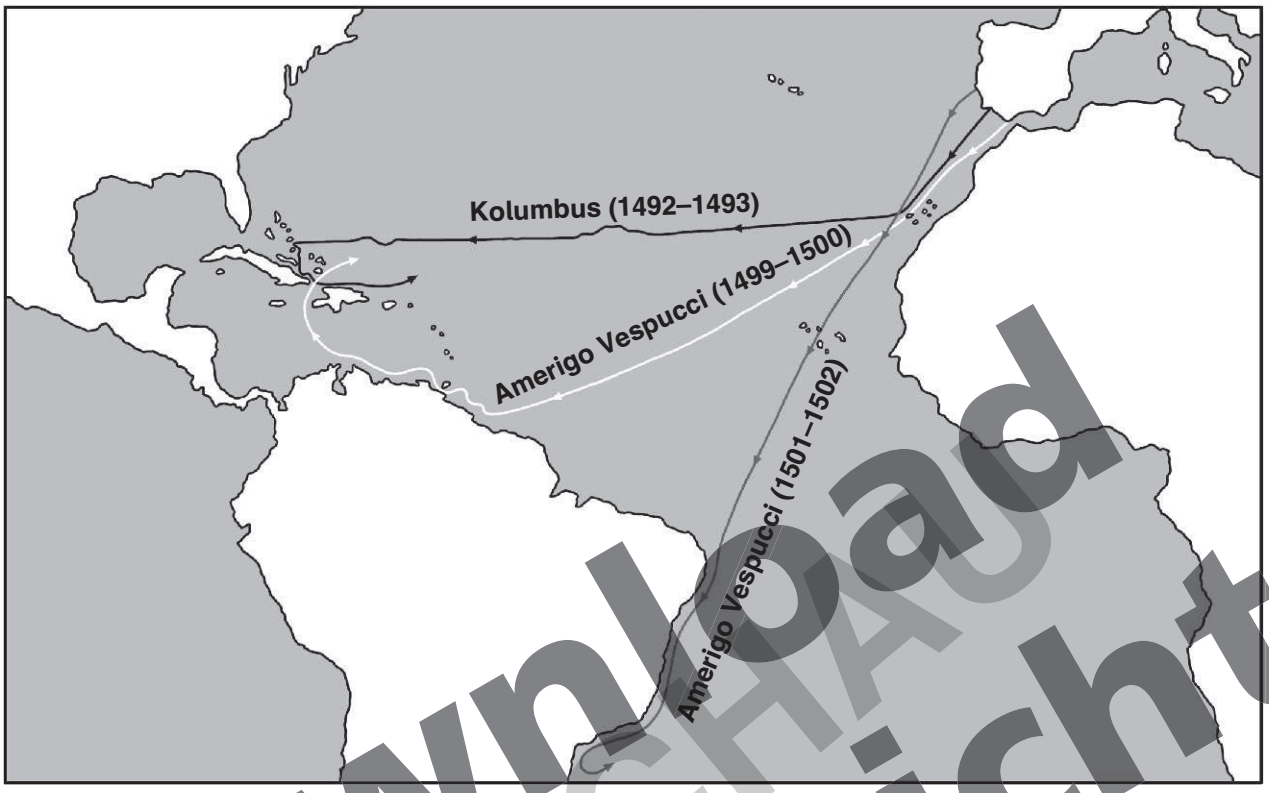

Download zur Ansicht

Über die Entdeckung Amerikas gibt es unterschiedliche Ansichten:

Viele Menschen sind der Ansicht, dass Christoph Kolumbus im Jahre 1492 Amerika entdeckt hätte. Kolumbus hatte zu dieser Zeit versucht, im Auftrag der spanischen Könige einen Seeweg von Europa nach Indien zu finden. Als er dann nach 71 Tagen anstrengender Seefahrt endlich Land fand, meinte er, in Indien angekommen zu sein. In Wirklichkeit war er aber auf einer Insel der heutigen Bahamas gelandet.
Erst 10 Jahre später stellte der Seefahrer Amerigo Vespucci fest, dass Kolumbus nicht Indien erreicht, sondern stattdessen einen neuen Kontinent entdeckt hatte. Weil Amerigo Vespucci dies als erster Europäer erkannte, wurde der neue Kontinent ihm zu Ehren „Amerika“ genannt.

Hat aber wirklich Kolumbus als erster Europäer Amerika entdeckt?

Forscher haben herausgefunden, dass der Kontinent wahrscheinlich schon viel früher von Europäern entdeckt wurde. Um das Jahr 1000 nach Christus landeten nämlich Wikinger in der Gegend der heutigen Insel Neufundland (Kanada). Die Wikinger waren bei ihren Entdeckungsfahrten und der Besiedlung von Island und Grönland immer weiter westwärts gefahren und so schließlich an die Küste des heutigen Amerikas gestoßen. Dort haben sie sich jedoch nicht dauerhaft niedergelassen. Der Grund dafür ist bis heute nicht eindeutig geklärt.

1. **Schreibe auf, welche Europäer, wann und an welcher Stelle Amerika entdeckt haben.**
2. **Nenne den eigentlichen Anlass für die Entdeckungsfahrt von Christoph Kolumbus.**
3. **Nenne den Seefahrer, der festgestellt hat, dass Kolumbus einen neuen Kontinent entdeckt hatte.**
4. **Welche Ehre wurde ihm dafür zuteil?**
5. **Beschreibe, über welchen Umweg die Wikinger nach Amerika gelangt sind?**

netzwerk lernen
zur Vollversion

© Persen Verlag – AAP Lehrerfachverlage GmbH, Buxtehude

Name:	Datum:	5a
Flüsse und Seen Nordamerikas		

Nimm einen Atlas zu Hilfe.

1. **Finde die Namen der nummerierten Flüsse (1 – 12) heraus. In welche Meere, Ozeane oder anderen Flüsse münden sie?**
2. **Finde die Namen der Seen (A – I) heraus.**

Trage alle deine Ergebnisse richtig in die Tabelle ein.

Download zur Ansicht vorschau

netzwerk lernen
zur Vollversion

© Persen Verlag – AAP Lehrerfachverlage GmbH, Buxtehude

Name:	Datum:	5b
Flüsse und Seen Nordamerikas		

Trage alle deine Ergebnisse richtig in die Tabelle ein.

Nr.	Flussname	mündet in …
1		
2		
3		
4		
5		
6		
7		
8		
9		
10		
11		
12		

Nr.	Name des Sees
A	
B	
C	
D	
E	
F	
G	
H	
I	

Download zur Ansicht
VORSCHAU

netzwerk lernen
zur Vollversion

© Persen Verlag – AAP Lehrerfachverlage GmbH, Buxtehude

Name:	Datum:	
Flüsse Südamerikas		

Nimm einen Atlas zu Hilfe.

1. **Finde die Namen der nummerierten Flüsse heraus. Trage deine Ergebnisse richtig in die Tabelle ein.**

2. **In welchen Ozean münden alle diese Flüsse?** _____

3. **Fluss Nummer 6 ist der größte Fluss der Welt. Wie heißt er?** _____

Nr.	Flussname
1	
2	
3	
4	
5	
6	
7	
8	
9	
10	
11	
12	

Download zur Ansicht VORSCHAU

netzwerk lernen
zur Vollversion

© Persen Verlag – AAP Lehrerfachverlage GmbH, Buxtehude

Name:	Datum:	
Die Länder Amerikas – Sprachen		

Nimm die Länderinfokarten für den Kontinent Amerika zu Hilfe.

1. **Finde heraus, welche Sprache in welchem amerikanischen Land gesprochen wird.**
2. **Markiere die Länder in den angegebenen Farben.**

Landessprache **Englisch**:
Markiere diese Länder **blau**.

Landessprache **Spanisch**:
Markiere diese Länder **rot**.

Landessprache **Portugiesisch**:
Markiere diese Länder **grün**.

Landessprache **Französisch**:
Markiere diese Länder **orange**.

Landessprache **Niederländisch**:
Markiere diese Länder **gelb**.

Download zur Ansicht
VORSCHAU
zur Vollversion
netzwerk lernen

© Persen Verlag – AAP Lehrerfachverlage GmbH, Buxtehude

Name:	Datum:	
Die Länder Amerikas – Flaggen		

1. **Male die Flaggen richtig aus.**
2. **Verbinde jede Flagge mit dem dazugehörigen Land.**

Tipp: Nimm zum Ausmalen die Länderinfokarten zu Hilfe oder schaue unter www.flaggenwelt.de nach.

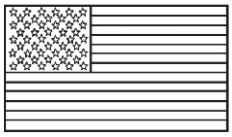

USA

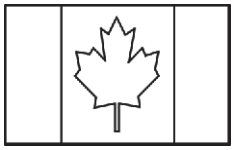

Kanada



Mexiko

Jamaika

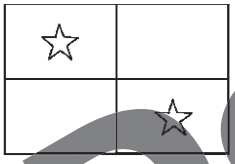

Panama



Venezuela

Kolumbien

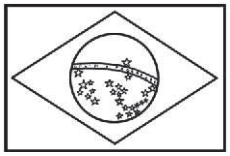

Brasilien



Peru



Uruguay



Argentinien



Download VORSCHAU zur Ansicht

netzwerk lernen

zur Vollversion

© Persen Verlag – AAP Lehrerfachverlage GmbH, Buxtehude

Name:	Datum:	

Detektivrätsel Amerika – Findest du die Lösung?

1	Dieses Land liegt in Südamerika an der Atlantikküste. Es ist von der Fläche her das fünftgrößte Land der Welt. Der Amazonas fließt durch dieses Land. Portugiesisch ist die offizielle Landessprache.	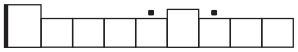
2	Es ist ein Inselstaat in der Karibik. Die Landessprache ist Englisch. Die Insel liegt südlich der Insel Kuba. Die Flagge hat die Farbkombination Schwarz-Gelb-Grün.	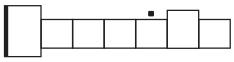
3	An diesen Staat grenzt sowohl der Atlantik als auch der Pazifik. Die Landessprache ist Spanisch. Im Süden grenzt es an Kolumbien. Durch dieses Land führt ein wichtiger Kanal für Schiffe.	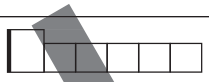
4	Es ist ein sehr langes und schmales Land. Im Westen grenzt es an den Pazifischen Ozean. Im Osten hat es eine lange Grenze mit Argentinien. Die Hauptstadt heißt Santiago.	
5	Von der Fläche her ist es das zweitgrößte Land der Welt. Es liegt im Norden des amerikanischen Kontinents. Es hat zwei offizielle Landessprachen. In seiner Flagge ist ein rotes Ahornblatt zu sehen.	
6	An diesen Staat grenzt sowohl der Atlantik als auch der Pazifik. Ein Teil dieses Staates grenzt nur an Kanada. Die Landessprache ist Englisch. In der Regel wird dieses Land mit drei Buchstaben abgekürzt.	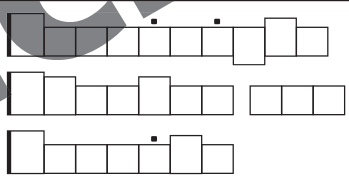
7	Dieser Staat grenzt im Osten und Westen ans Meer. Das Land gehört zum Gebiet Mittelamerikas. Die Landessprache ist Spanisch. Es hat im Norden eine gemeinsame Grenze mit den USA.	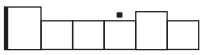
8	Es ist ein Staat in Südamerika. Es hat eine gemeinsame Grenze mit Brasilien. Es liegt zwischen Guyana und Französisch-Guyana. Die offizielle Landessprache ist Niederländisch.	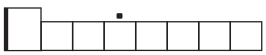
9	Das Land liegt in Südamerika. Es liegt nicht an einem Ozean oder Meer. Ein Fluss hat den gleichen Namen wie das Land selbst. Es grenzt an Argentinien, Bolivien und Brasilien.	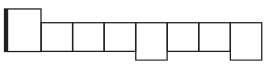
10	Das Land liegt in Südamerika. Es grenzt im Westen an den Pazifik, im Osten an die Karibik. Es hat eine gemeinsame Grenze mit dem kleinen Land Panama. Die Hauptstadt heißt Bogota.	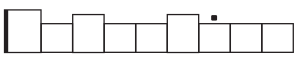
11	Es ist ein riesiger Gebirgszug. Der höchste Berg Amerikas befindet sich in diesem Gebirge. Das Gebirge reicht von Kolumbien im Norden bis nach Chile im Süden.	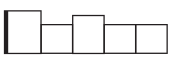
12	Es ist eine riesige „Bucht“, die mit dem Atlantik verbunden ist. Diese Bucht liegt in Kanada. Viele Kanäle und Flüsse münden in diese Bucht.	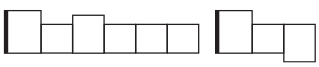

Download zur Ansicht

netzwerk lernen
zur Vollversion

© Persen Verlag – AAP Lehrerfachverlage GmbH, Buxtehude

Name:	Datum:	
Erdkundetest – Amerika		

Nimm für Aufgabe 1 einen Atlas zu Hilfe.

1. a. **Trage in die Tabelle für die Nummern 1–10 die richtigen Namen der Flüsse ein.**
   b. **Trage in die Tabelle für die Buchstaben A–H die richtigen Namen der Meere, Ozeane und Seen ein.**

Download zur Ansicht

1		**7**		**C**	
2		**8**		**D**	
3		**9**		**E**	
4		**10**		**F**	
5		**A**		**G**	
6		**B**		**H**	

netzwerk lernen
zur Vollversion

Jens Eggert: Amerika entdecken
© Persen Verlag – AAP Lehrerfachverlage GmbH, Buxtehude

Name:	Datum:	
Erdkundetest – Amerika		

2. Wie heißt der längste Fluss der Welt und in welchen Ozean mündet er?

Der _____ (*Flussname*) mündet in den _____.

2

3. a. Wie heißt das große Gebirge in Nordamerika? _____

b. Wie heißt das große Gebirge in Südamerika? _____

2

4. Welche Sprachen werden in den folgenden Ländern gesprochen?

USA: _____ Kanada: _____ und _____

Brasilien: _____ Suriname: _____

Mexiko: _____ Argentinien: _____

7

5. Verbinde jede Flagge mit dem dazugehörigen Land.





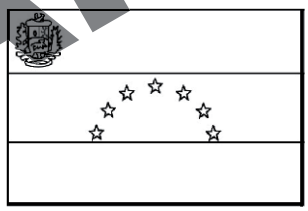


Kanada **Mexiko** **Argentinien** **USA** **Venezuela** **Brasilien**

6

7. Nenne das Meeresgebiet, das sich zwischen dem nord- und südamerikanischen Kontinent befindet. _____

1

Gesamtpunktzahl: 27 **Note:** _____

Erreichte Punktzahl: _____ **Durchschnitt:** _____

Download zur Ansicht VORSCHAU

netzwerk lernen

zur Vollversion

© Persen Verlag – AAP Lehrerfachverlage GmbH, Buxtehude

Name:	Datum:	
Erdkundetest – Amerika		

Nimm für Aufgabe 1 einen Atlas zu Hilfe.

1. a. **Trage in die Tabelle für die Nummern 1–10 die richtigen Namen der Flüsse ein.**
   b. **Trage in die Tabelle für die Buchstaben A–H die richtigen Namen der Meere, Ozeane und Seen ein.**

Download zur Ansicht

1	*Yukon*	7	*Colorado*	C	*Hudson Bay*
2	*Mackenzie*	8	*Rio Grande*	D	*Atlantischer Ozean*
3	*Athabasca*	9	*Mississippi*	E	*Golf von Mexiko*
4	*Columbia*	10	*Sankt-Lorenz-Strom*	F	*Oberer See*
5	*Snake*	A	*Nordpolarmeer*	G	*Michigansee*
6	*Saskatchewan*	B	*Pazifischer Ozean*	H	*Huronsee*

netzwerk lernen
zur Vollversion

Jens Eggert: Amerika entdecken
© Persen Verlag – AAP Lehrerfachverlage GmbH, Buxtehude

Name:	Datum:	
Erdkundetest – Amerika		

2. Wie heißt der längste Fluss der Welt und in welchen Ozean mündet er?

Der *Amazonas* (*Flussname*) mündet in den *Atlantischen Ozean*.

2

3. a. Wie heißt das große Gebirge in Nordamerika? *Rocky Mountains*

b. Wie heißt das große Gebirge in Südamerika? *Anden*

2

4. Welche Sprachen werden in den folgenden Ländern gesprochen?

USA: *Englisch*

Kanada: *Englisch* und *Französisch*

Brasilien: *Portugiesisch*

Suriname: *Niederländisch*

Mexiko: *Spanisch*

Argentinien: *Spanisch*

7

5. Verbinde jede Flagge mit dem dazugehörigen Land.



Kanada **Mexiko** **Argentinien** **USA** **Venezuela** **Brasilien**

6

7. Nenne das Meeresgebiet, das sich zwischen dem nord- und südamerikanischen Kontinent befindet. *Karibik*

1

Gesamtpunktzahl: 27 **Note:** _____

Erreichte Punktzahl: _____ **Durchschnitt:** _____

Download zur Ansicht VORSCHAU

netzwerk lernen

zur Vollversion

© Persen Verlag – AAP Lehrerfachverlage GmbH, Buxtehude

Südamerika

CO

Landesname:	Kolumbien
Hauptstadt:	Bogota
Landessprache:	Spanisch
Bevölkerung:	44,2 Millionen
Fläche:	1.138.914 km²
Höchster Berg:	Pico Cristobal Colon 5775 m
Währung:	Kolumbianischer Peso

Südamerika

RA

Landesname:	Argentinien
Hauptstadt:	Buenos Aires
Landessprache:	Spanisch
Bevölkerung:	41,3 Millionen
Fläche:	2.782.400 km²
Höchster Berg:	Aconcagua 6960 m
Währung:	Argentinischer Peso

Südamerika

BOL

Landesname:	Bolivien
Hauptstadt:	La Paz
Landessprache:	Spanisch, Ketschua
Bevölkerung:	9,9 Millionen
Fläche:	1.098.581 km²
Höchster Berg:	Nevado Sajama 6542 m
Währung:	Boliviano

Südamerika

BR

Landesname:	Brasilien
Hauptstadt:	Brasilia
Landessprache:	Portugiesisch
Bevölkerung:	201,1 Millionen
Fläche:	8.514.877 km²
Höchster Berg:	Pico da Neblina 2994 m
Währung:	Real

Südamerika

RCH

Landesname:	Chile
Hauptstadt:	Santiago de Chile
Landessprache:	Spanisch
Bevölkerung:	16,7 Millionen
Fläche:	756.096 km²
Höchster Berg:	Ojos del Salado 6880 m
Währung:	Chilenischer Peso

Südamerika

EC

Landesname:	Ecuador
Hauptstadt:	Quito
Landessprache:	Spanisch
Bevölkerung:	14,8 Millionen
Fläche:	283.561 km²
Höchster Berg:	Chimborazo 6272 m
Währung:	US-Dollar

Südamerika

GUY

Landesname:	Guyana
Hauptstadt:	Georgetown
Landessprache:	Englisch
Bevölkerung:	748.000
Fläche:	214.969 km²
Höchster Berg:	Mt. Roraima 2810 m
Währung:	Guyana-Dollar

Südamerika

PY

Landesname:	Paraguay
Hauptstadt:	Asuncion
Landessprache:	Spanisch
Bevölkerung:	6,3 Millionen
Fläche:	406.752 km²
Höchster Berg:	Cerro Pero 842 m
Währung:	Guarani

Südamerika

PE

Landesname:	Peru
Hauptstadt:	Lima
Landessprache:	Spanisch, Quechva
Bevölkerung:	29,9 Millionen
Fläche:	1.285.216 km²
Höchster Berg:	Huascaran 6768 m
Währung:	Nuevo Sol

Download zur Ansicht VORSCHAU

netzwerk lernen

zur Vollversion

Südamerika

SME

Landesname:	Surinam
Hauptstadt:	Paramaribo
Landessprache:	Niederländisch
Bevölkerung:	486.000
Fläche:	163.265 km²
Höchster Berg:	Juliana Top 1230 m
Währung:	Surinam-Dollar

Südamerika

ROU

Landesname:	Uruguay
Hauptstadt:	Montevideo
Landessprache:	Spanisch
Bevölkerung:	3,5 Millionen
Fläche:	176.215 km²
Höchster Berg:	Cerro Catedral 514 m
Währung:	Peso Uruguayo

Südamerika

YV

Landesname:	Venezuela
Hauptstadt:	Caracas
Landessprache:	Spanisch
Bevölkerung:	27,2 Millionen
Fläche:	912.050 km²
Höchster Berg:	Pico Bolivar 5007 m
Währung:	Bolivar

Mittelamerika

C

Landesname:	Kuba
Hauptstadt:	Havanna
Landessprache:	Spanisch
Bevölkerung:	11,4 Millionen
Fläche:	110.860 km²
Höchster Berg:	Pico Turquino 2005 m
Währung:	Kubanischer Peso

Mittelamerika

PA

Landesname:	Panama
Hauptstadt:	Panama-City
Landessprache:	Spanisch
Bevölkerung:	3,4 Millionen
Fläche:	75.041 km²
Höchster Berg:	Chiriqui 3475 m
Währung:	Balboa

Mittelamerika

NIC

Landesname:	Nicaragua
Hauptstadt:	Managua
Landessprache:	Spanisch
Bevölkerung:	6 Millionen
Fläche:	130.370 km²
Höchster Berg:	Mogoton 2438 m
Währung:	Cordoba Oro

Mittelamerika

MEX

Landesname:	Mexiko
Hauptstadt:	Mexiko-Stadt
Landessprache:	Spanisch
Bevölkerung:	112,4 Millionen
Fläche:	1.964.375 km²
Höchster Berg:	Pico de Orizaba 5700 m
Währung:	Mexikanischer Peso

Mittelamerika

HO

Landesname:	Honduras
Hauptstadt:	Tegucigalpa
Landessprache:	Spanisch
Bevölkerung:	7,9 Millionen
Fläche:	112.088 km²
Höchster Berg:	Pico Las Minas 2865 m
Währung:	Lempira

Mittelamerika

CR

Landesname:	Costa Rica
Hauptstadt:	San José
Landessprache:	Spanisch
Bevölkerung:	4,5 Millionen
Fläche:	51.100 km²
Höchster Berg:	Cerro Chirripo 3819 m
Währung:	Costa-Rica-Colón

Download zur Ansicht
Vorschau

netzwerk lernen
zur Vollversion

Mittelamerika

DOM

Landesname:	Dominikanische Republik
Hauptstadt:	Santo Domingo
Landessprache:	Spanisch
Bevölkerung:	9,7 Millionen
Fläche:	48.511 km²
Höchster Berg:	Pico Duarte 3175 m
Währung:	Dominikanischer Peso

Mittelamerika

ES

Landesname:	El Salvador
Hauptstadt:	San Salvador
Landessprache:	Spanisch
Bevölkerung:	6 Millionen
Fläche:	21.047 km²
Höchster Berg:	Cerro El Pital 2730 m
Währung:	US-Dollar

Mittelamerika

GCA

Landesname:	Guatemala
Hauptstadt:	Guatemala-City
Landessprache:	Spanisch
Bevölkerung:	13,5 Millionen
Fläche:	108.889 km²
Höchster Berg:	Tajumulco 4211 m
Währung:	Quetzal

Mittelamerika

RH

Landesname:	Haiti
Hauptstadt:	Port-au-Prince
Landessprache:	Französisch, Kreolisch
Bevölkerung:	9,2 Millionen
Fläche:	27.750 km²
Höchster Berg:	Mont la Selle 2680 m
Währung:	Gourde

Mittelamerika

BH

Landesname:	Belize
Hauptstadt:	Belmopan
Landessprache:	Englisch
Bevölkerung:	315.000
Fläche:	22.960 km²
Höchster Berg:	Doyle's Delight 1160 m
Währung:	Belize-Dollar

Karibik

JA

Landesname:	Jamaika
Hauptstadt:	Kingston
Landessprache:	Englisch
Bevölkerung:	2,8 Millionen
Fläche:	10.990 km²
Höchster Berg:	Blue Mountain Peak 2292 m
Währung:	Jamaika-Dollar

Nordamerika

USA

Landesname:	Vereinigte Staaten von Amerika
Hauptstadt:	Washington D.C.
Landessprache:	Englisch (Spanisch)
Bevölkerung:	310,2 Millionen
Fläche:	9.826.675 km²
Höchster Berg:	Mount McKinley 6194 m
Währung:	US-Dollar

Nordamerika

CDN

Landesname:	Kanada
Hauptstadt:	Ottawa
Landessprache:	Englisch, Französisch
Bevölkerung:	33,7 Millionen
Fläche:	9.984.670 km²
Höchster Berg:	Mount Logan 5959 m
Währung:	Kanadischer Dollar

Südamerika

GUF

Landesname:	Französisch-Guyana
Hauptstadt:	Cayenne
Landessprache:	Französisch
Bevölkerung:	206.000
Fläche:	83.534 km²
Höchster Berg:	Bellevue de L´Inini 851 m
Währung:	Euro

Download zur Ansicht VORSCHAU

netzwerk lernen

zur Vollversion

Karibik

AG

Landesname:	Antigua & Barbuda
Hauptstadt:	Saint John´s
Landessprache:	Englisch
Bevölkerung:	68.000
Fläche:	442 km²
Höchster Berg:	Boggy Peak 405 m
Währung:	Ostkaribischer Dollar

Karibik

BS

Landesname:	Bahamas
Hauptstadt:	Nassau
Landessprache:	Englisch
Bevölkerung:	310.000
Fläche:	13.878 km²
Höchster Berg:	Mount Alvernia 63 m
Währung:	Bahama-Dollar

Karibik

BDS

Landesname:	Barbados
Hauptstadt:	Bridgetown
Landessprache:	Englisch
Bevölkerung:	286.000
Fläche:	430 km²
Höchster Berg:	Mount Hillaby 340 m
Währung:	Barbados-Dollar

Karibik

WD

Landesname:	Dominica
Hauptstadt:	Roseau
Landessprache:	Englisch
Bevölkerung:	73.000
Fläche:	751 km²
Höchster Berg:	Morne Diablotin 1447 m
Währung:	Ostkaribischer Dollar

Karibik

WG

Landesname:	Grenada
Hauptstadt:	Saint George´s
Landessprache:	Englisch
Bevölkerung:	108.000
Fläche:	344 km²
Höchster Berg:	Mt. Saint Catherine 840 m
Währung:	Ostkaribischer Dollar

Karibik

KN

Landesname:	Saint Kitts und Nevis
Hauptstadt:	Basseterre
Landessprache:	Englisch
Bevölkerung:	50.000
Fläche:	262 km²
Höchster Berg:	Mt. Liamuiga 1156 m
Währung:	Ostkaribischer Dollar

Karibik

WL

Landesname:	St. Lucia
Hauptstadt:	Castries
Landessprache:	Englisch
Bevölkerung:	161.000
Fläche:	616 km²
Höchster Berg:	Mount Gimie 950 m
Währung:	Ostkaribischer Dollar

Karibik

TT

Landesname:	Trinidad und Tobago
Hauptstadt:	Port of Spain
Landessprache:	Englisch
Bevölkerung:	1,2 Millionen
Fläche:	5128 km²
Höchster Berg:	El Cerro del Aripo 940 m
Währung:	Trinidad & Tobago Dollar

Karibik

WV

Landesname:	Saint Vincent & Grenadinen
Hauptstadt:	Kingstown
Landessprache:	Englisch
Bevölkerung:	104.000
Fläche:	389 km²
Höchster Berg:	Soufriere 1234 m
Währung:	Ostkaribischer Dollar

Download zur Ansicht
VORSCHAU

netzwerk lernen

zur Vollversion

Die Länder der Welt

Amerika – Länderinfokarte

Die Länder der Welt

Amerika – Länderinfokarte

Die Länder der Welt

Amerika – Länderinfokarte

Die Länder der Welt

Amerika – Länderinfokarte

Die Länder der Welt

Amerika – Länderinfokarte

Die Länder der Welt

Amerika – Länderinfokarte

Die Länder der Welt

Amerika – Länderinfokarte

Die Länder der Welt

Amerika – Länderinfokarte

Die Länder der Welt

Amerika – Länderinfokarte

Download zur Ansicht VORSCHAU

netzwerk lernen

zur Vollversion

Literatur- und Quellenverzeichnis

Druckmedien:

- Erdkunde – TRIO Atlas für Erdkunde – Geschichte – Gemeinschaftskunde, Schroedel, 1999.
- Erdkundemappe Welt, Brink/Wertenbroch, Persen Verlag, 16. Aufl. 2008.
- GEO-Themenlexikon – Unsere Erde, Band 1 – 3, Gruner & Jahr, 2006.
- Großer Atlas der Welt, Die Erde im neuen Kartenbild, RV Reise- und Verkehrsverlag GmbH, 1985.
- Unsere Welt – Mensch und Raum, Atlas für Baden-Württemberg, Cornelsen, Ausgabe 2000.
- Westermann Schulatlas, Große Ausgabe, Georg Westermann Verlag, 1973.
- Wissen für Kinder, Die Erde, Planet Medien AG, Zug / Schweiz, 2004.

Internetquellen:

- de.wikipedia.org/wiki/Liste_der_h%C3%B6chsten_Punkte_nach_Land
- www.auswaertiges-amt.de/diplo/de/Laenderinformationen/LaenderReiseinformationenA-Z.jsp
- www.cia.gov/library/publications/the-world-factbook/
- www.erdkunde-wissen.de
- www.europa.s-cool.org/
- www.flaggenwelt.de
- www.goruma.de/Laender/index.html
- www.henked.de/laender/europa.htm
- www.ipicture.de/daten/
- www.kfz.de/autokennzeichen/autokennzeichen_international/
- www.landkarten-spiele.de (Onlinefragespiel zu Deutschland und Europa)
- www.nationalflaggen.de/fahnen_flaggen/
- www.weltatlas.info
- www.weltinfo.com
- www.welt-auf-einen-blick.de
- www.welt-blick.de

Bildquellen:

- http://commons.wikimedia.org (farbige Länderflaggen)

Download zur Ansicht
VORSCHAU

netzwerk lernen
zur Vollversion

© Persen Verlag – AAP Lehrerfachverlage GmbH, Buxtehude