DOWNLOAD

Petra Schön/Andrea Pogoda Saam

Plus- und Minusaufgaben im Zahlenraum bis 100

VORSCHAU



Downloadauszug
aus dem Originaltitel:

netzwerk lernen

zur Vollversion

Name: Datum:

Plus- und Minusaufgaben über den Zehner

① Wie heißt die Aufgabe? Rechne!

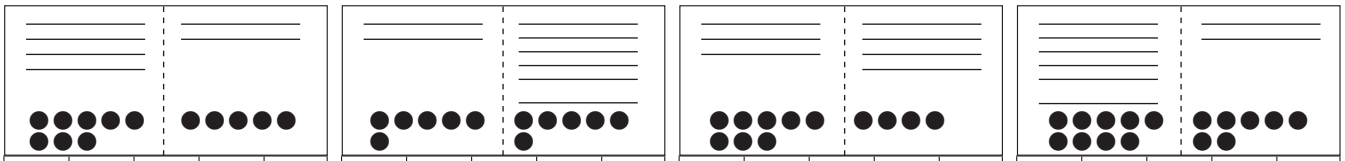

48	+	25	=	



94	−	16		

② Rechne!

96 − 28 =	69 + 24 =	54 − 19 =
82 − 47 =	56 + 13 =	73 − 25 =
63 − 34 =	35 + 48 =	38 + 45 =
53 − 30 =	74 + 20 =	27 + 57 =
46 − 18 =	57 + 36 =	82 − 35 =
78 − 53 =	28 + 54 =	35 + 40 =

③ Wie geht die Aufgabenreihe weiter?

−	+	−
83 − 5 =	18 + 16 =	21 − 9 =
83 − 15 =	28 + 16 =	31 − 18 =
83 − 25 =	38 + 16 =	41 − 27 =

Download zur Ansicht
VORSCHAU
netzwerk lernen
zur Vollversion

© Persen Verlag GmbH, Buxtehude

Name: Datum:

Verwandte Aufgaben über den Zehner

12 − 4 = ☐ 8

32 − 4 = 2 8

① Rechne aus und verbinde mit dem Lineal!

15 − 6 = ☐	34 − 7 = ☐	52 − 6 = ☐	14 − 9 = ☐
14 − 7 = ☐	91 − 3 = ☐	32 − 4 = ☐	15 − 7 = ☐
11 − 3 = ☐	45 − 6 = ☐	94 − 9 = ☐	12 − 6 = ☐
13 − 8 = ☐	53 − 8 = ☐	85 − 7 = ☐	12 − 4 = ☐

② Rechne! Schreibe deinen Lösungsweg auf!

36 − 9 = ☐	45 − 7 = ☐	22 − 8 = ☐	22 − 18 = ☐
☐ − ☐ = ☐	☐ − ☐ = ☐	☐ − ☐ = ☐	☐ − ☐ = ☐
☐ − ☐ = ☐	☐ − ☐ = ☐	☐ − ☐ = ☐	☐ − ☐ = ☐
36 − 19 = ☐	45 − 17 = ☐	81 − 6 = ☐	81 − 16 = ☐
☐ − ☐ = ☐	☐ − ☐ = ☐	☐ − ☐ = ☐	☐ − ☐ = ☐
☐ − ☐ = ☐	☐ − ☐ = ☐	☐ − ☐ = ☐	☐ − ☐ = ☐

③ Rechne! Fällt dir etwas auf?

12 − 4 = ☐	13 − 8 = ☐	93 − 76 = ☐
23 − 14 = ☐	53 − 8 = ☐	93 − 66 = ☐
34 − 24 = ☐	14 − 7 = ☐	93 − 56 = ☐
45 − 34 = ☐	64 − 7 = ☐	93 − 46 = ☐
56 − 44 = ☐	12 − 6 = ☐	93 − 36 = ☐

Download zur Ansicht
VORSCHAU
netzwerk lernen
zur Vollversion

© Persen Verlag GmbH, Buxtehude

Name: Datum:

Verwandte Aufgaben über den Zehner

5 + 7 = 1 2

65 + 7 = 7 2

① Rechne aus und verbinde mit dem Lineal!

3 + 9 =	46 + 5 =	49 + 5 =	7 + 4 =
6 + 5 =	68 + 6 =	37 + 4 =	7 + 6 =
8 + 7 =	73 + 9 =	85 + 7 =	9 + 5 =
8 + 6 =	78 + 7 =	57 + 6 =	5 + 7 =

② Rechne! Schreibe deinen Lösungsweg auf!

36 + 9 =	57 + 8 =	63 + 9 =	76 + 6 =
+ =	+ =	+ =	+ =
+ =	+ =	+ =	+ =

46 + 29 =	66 + 25 =	59 + 36 =	25 + 48 =
+ =	+ =	+ =	+ =
+ =	+ =	+ =	+ =

③ Rechne! Fällt dir etwas auf?

35 + 20 =	18 + 81 =	36 + 3 =
20 + 35 =	27 + 72 =	36 + 13 =
40 + 56 =	36 + 63 =	36 + 23 =
56 + 40 =	45 + 54 =	36 + 33 =

Download zur Ansicht
VORSCHAU
netzwerk lernen
zur Vollversion

© Persen Verlag GmbH, Buxtehude

Name: Datum:

Minusaufgaben über den Zehner

① Rechne! Schreibe deinen Lösungsweg auf!

36	–	17	=	
	–		=	
	–		=	

54	–	26	=	
	–		=	
	–		=	

66	–	39	=	
	–		=	
	–		=	

75	–	37	=	
	–		=	
	–		=	

82	–	47	=	
	–		=	
	–		=	

42	–	28	=	
	–		=	
	–		=	

91	–	55	=	
	–		=	
	–		=	

81	–	66	=	
	–		=	
	–		=	

② Rechne! Fällt dir etwas auf?

–	4	14	24
41	37	27	17
52			
63			
74			

–	5	25	45
92			
82			
72			
62			

–	9	19	29
35			
46			
57			
68			

–	6	26	46
54			
64			
74			
84			

③ Immer zwei Aufgaben haben das gleiche Ergebnis.
Male mit der gleichen Farbe an!

52	–	17	=	
	–		=	
	–		=	

91	–	66	=	
	–		=	
	–		=	

82	–	56	=	
	–		=	
	–		=	

64	–	29	=	
	–		=	
	–		=	

53	–	27	=	
	–		=	
	–		=	

48	–	23	=	
	–		=	
	–		=	

Download zur Ansicht
VORSCHAU
netzwerk lernen
zur Vollversion

© Persen Verlag GmbH, Buxtehude

Name: Datum:

Minusaufgaben über den Zehner

① Rechne! Schreibe den Lösungsweg auf!

38 − 9 = ☐☐	24 − 6 = ☐☐	75 − 8 = ☐☐
☐ − ☐ = ☐☐	☐ − ☐ = ☐☐	☐ − ☐ = ☐☐
☐ − ☐ = ☐☐	☐ − ☐ = ☐☐	☐ − ☐ = ☐☐

47 − 9 = ☐☐	56 − 8 = ☐☐	33 − 7 = ☐☐	91 − 5 = ☐☐
☐ − ☐ = ☐☐	☐ − ☐ = ☐☐	☐ − ☐ = ☐☐	☐ − ☐ = ☐☐
☐ − ☐ = ☐☐	☐ − ☐ = ☐☐	☐ − ☐ = ☐☐	☐ − ☐ = ☐☐

② Entscheide, ob du den Zehner anknabbern musst oder nicht!
Lege und rechne! Kreuze an!

63	−	7	=		○	88	−	5	=		○
51	−	5	=		○	56	−	6	=		○
25	−	4	=		○	93	−	9	=		○
32	−	3	=		○	77	−	9	=		○
49	−	6	=		○	68	−	7	=		○

③ Wie geht die Aufgabenreihe weiter? Rechne!

56	−	2	=		27	−	5	=		43	−	3	=	
56	−	4	=		26	−	5	=		42	−	4	=	
56	−	6	=		25	−	5	=		41	−	5	=	
	−		=			−		=			−		=	
	−		=			−		=			−		=	
	−		=			−		=			−		=	

Download zur Ansicht
VORSCHAU
netzwerk lernen
zur Vollversion

© Persen Verlag GmbH, Buxtehude

Name: Datum:

Minusaufgaben über den Zehner

Peters Hamster knabbert den Zehner an!



$34 - 7 = \boxed{27}$

① Entscheide, ob du den Zehner anknabbern musst oder nicht!
Lege und rechne! Kreuze an!

74	−	6	=		○	28	−	4	=		○
62	−	4	=		○	47	−	6	=		○
36	−	6	=		○	43	−	8	=		○
18	−	3	=		○	55	−	9	=		○
51	−	5	=		○	66	−	8	=		○

② Wie heißt die Aufgabe? Schreibe und rechne!






74 − 6 = ☐☐	☐ − ☐ = ☐☐	☐ − ☐ = ☐☐	☐ − ☐ = ☐☐
☐ − ☐ = ☐☐	☐ − ☐ = ☐☐	☐ − ☐ = ☐☐	☐ − ☐ = ☐☐
☐ − ☐ = ☐☐	☐ − ☐ = ☐☐	☐ − ☐ = ☐☐	☐ − ☐ = ☐☐

Download zur Ansicht
VORSCHAU
netzwerk lernen
zur Vollversion

© Persen Verlag GmbH, Buxtehude

Name: Datum:

Tauschaufgaben



5 + 37 = ☐

37 + 5 = ☐

① Rechne die Tauschaufgabe!

9 + 29 = ☐	7 + 49 = ☐	2 + 61 = ☐
29 + 9 = ☐	☐ + ☐ = ☐	☐ + ☐ = ☐
8 + 34 = ☐	6 + 87 = ☐	5 + 43 = ☐
☐ + ☐ = ☐	☐ + ☐ = ☐	☐ + ☐ = ☐

② Finde die passende Tauschaufgabe und rechne!
Verbinde mit dem Lineal!

5 + 34 = ☐	66 + 2 = ☐
2 + 66 = ☐	87 + 6 = ☐
7 + 78 = ☐	34 + 5 = ☐
6 + 87 = ☐	78 + 7 = ☐

③ Rechne die Tauschaufgabe, wenn es sinnvoll ist!

7 + 87 = ☐	67 + 10 = ☐	13 + 58 = ☐
☐ + ☐ = ☐	☐ + ☐ = ☐	☐ + ☐ = ☐

Download zur Ansicht
VORSCHAU
netzwerk lernen
zur Vollversion

© Persen Verlag GmbH, Buxtehude

Name: Datum:

Wir rechnen über den Zehner

① Rechne! Schreibe deinen Lösungsweg auf!

37 + 7 = ☐☐	46 + 9 = ☐☐	53 + 8 = ☐☐	65 + 7 = ☐☐
☐ + ☐ = ☐☐	☐ + ☐ = ☐☐	☐ + ☐ = ☐☐	☐ + ☐ = ☐☐
☐ + ☐ = ☐☐	☐ + ☐ = ☐☐	☐ + ☐ = ☐☐	☐ + ☐ = ☐☐
67 + 18 = ☐☐	55 + 36 = ☐☐	48 + 35 = ☐☐	56 + 19 = ☐☐
☐ + ☐ = ☐☐	☐ + ☐ = ☐☐	☐ + ☐ = ☐☐	☐ + ☐ = ☐☐
☐ + ☐ = ☐☐	☐ + ☐ = ☐☐	☐ + ☐ = ☐☐	☐ + ☐ = ☐☐

② Entscheide, ob es Aufgaben über den Zehner sind!
Rechne und kreuze an!

75	+	6	=		○	29	+	4	=		○
61	+	4	=		○	48	+	6	=		○
46	+	6	=		○	43	+	5	=		○
18	+	3	=		○	55	+	2	=		○
57	+	2	=		○	66	+	8	=		○

③ Wie geht die Aufgabenreihe weiter? Rechne!

13	+	8	=		27	+	4	=		16	+	13	=	
24	+	8	=		26	+	5	=		18	+	13	=	
35	+	8	=		25	+	6	=		20	+	13	=	
	+		=			+		=			+		=	
	+		=			+		=			+		=	
	+		=			+		=			+		=	

Download zur Ansicht
VORSCHAU
netzwerk lernen
zur Vollversion

© Persen Verlag GmbH, Buxtehude

Wir rechnen über den Zehner





① Wie heißt die Aufgabe? Schreibe und rechne!

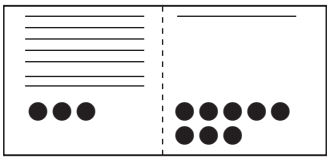

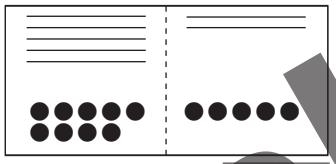



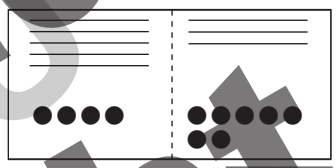

73 + 18 = ☐☐ + = ☐☐ + = ☐☐ + = ☐☐

☐ + ☐ = ☐☐ ☐ + ☐ = ☐☐ ☐ + ☐ = ☐☐ ☐ + ☐ = ☐☐

☐ + ☐ = ☐☐ ☐ + ☐ = ☐☐ ☐ + ☐ = ☐☐ ☐ + ☐ = ☐☐

② Rechne!

75 + 16 = ☐☐ 46 + 36 = ☐☐ 18 + 59 = ☐☐ 29 + 42 = ☐☐

☐ + ☐ = ☐☐ ☐ + ☐ = ☐☐ ☐ + ☐ = ☐☐ ☐ + ☐ = ☐☐

☐ + ☐ = ☐☐ ☐ + ☐ = ☐☐ ☐ + ☐ = ☐☐ ☐ + ☐ = ☐☐

43 + 39 = ☐☐ 55 + 27 = ☐☐ 66 + 15 = ☐☐ 38 + 38 = ☐☐

☐ + ☐ = ☐☐ ☐ + ☐ = ☐☐ ☐ + ☐ = ☐☐ ☐ + ☐ = ☐☐

☐ + ☐ = ☐☐ ☐ + ☐ = ☐☐ ☐ + ☐ = ☐☐ ☐ + ☐ = ☐☐

③ Finde eigene Aufgaben über den Zehner!

☐ ☐ = ☐☐ ☐ ☐ = ☐☐ ☐ ☐ = ☐☐ ☐ ☐ = ☐☐

☐ ☐ = ☐☐ ☐ ☐ = ☐☐ ☐ ☐ = ☐☐ ☐ ☐ = ☐☐

☐ ☐ = ☐☐ ☐ ☐ = ☐☐ ☐ ☐ = ☐☐ ☐ ☐ = ☐☐

Download zur Ansicht VORSCHAU

netzwerk lernen

zur Vollversion

© Persen Verlag GmbH, Buxtehude

Wir rechnen über den Zehner







① Wie heißt die Aufgabe? Schreibe und rechne!

27 + 5 = ☐☐ ☐ + ☐ = ☐☐ ☐ + ☐ = ☐☐ ☐ + ☐ = ☐☐

☐ + ☐ = ☐☐ ☐ + ☐ = ☐☐ ☐ + ☐ = ☐☐ ☐ + ☐ = ☐☐

☐ + ☐ = ☐☐ ☐ + ☐ = ☐☐ ☐ + ☐ = ☐☐ ☐ + ☐ = ☐☐

② Rechne!

45 + 6 = ☐☐ 26 + 8 = ☐☐ 57 + 4 = ☐☐ 37 + 7 = ☐☐

☐ + ☐ = ☐☐ ☐ + ☐ = ☐☐ ☐ + ☐ = ☐☐ ☐ + ☐ = ☐☐

☐ + ☐ = ☐☐ ☐ + ☐ = ☐☐ ☐ + ☐ = ☐☐ ☐ + ☐ = ☐☐

62 + 9 = ☐☐ 55 + 7 = ☐☐ 78 + 5 = ☐☐ 44 + 8 = ☐☐

☐ + ☐ = ☐☐ ☐ + ☐ = ☐☐ ☐ + ☐ = ☐☐ ☐ + ☐ = ☐☐

☐ + ☐ = ☐☐ ☐ + ☐ = ☐☐ ☐ + ☐ = ☐☐ ☐ + ☐ = ☐☐

③ Finde eigene Aufgaben über den Zehner!

☐ ☐ = ☐☐ ☐ ☐ = ☐☐ ☐ ☐ = ☐☐ ☐ ☐ = ☐☐

☐ ☐ = ☐☐ ☐ ☐ = ☐☐ ☐ ☐ = ☐☐ ☐ ☐ = ☐☐

☐ ☐ = ☐☐ ☐ ☐ = ☐☐ ☐ ☐ = ☐☐ ☐ ☐ = ☐☐

Download zur Ansicht VORSCHAU
netzwerk lernen
zur Vollversion

© Persen Verlag GmbH, Buxtehude

Name: Datum:

Wir rechnen über den Zehner





① Wie heißt die Aufgabe? Male, schreibe und rechne!

19 + 5 =	36 + 7 =	43 + 8 =	59 + 4 =
+ =	+ =	+ =	+ =
+ =	+ =	+ =	+ =
65 + 8 =	82 + 9 =	48 + 6 =	27 + 4 =
+ =	+ =	+ =	+ =
+ =	+ =	+ =	+ =

② Finde eigene Aufgaben über den Zehner! Male, schreibe und rechne!

+ =	+ =	+ =	+ =
+ =	+ =	+ =	+ =
+ =	+ =	+ =	+ =

Download zur Ansicht
VORSCHAU
netzwerk lernen
zur Vollversion

© Persen Verlag GmbH, Buxtehude